القلب ودمج الملح باليود -٧٧

النسخة المحلولة

عنوان الدورة: دورة المحوسب - بنين

القسم: نماذج المنصف المحدثة

عدد الأسئلة: ٤٧

تحذير:

هذا المحتوى مخصص حصرياً للمشتركين في الدورة ولا نحلل غيرهم

يمنع منعاً باتاً نسخ أو توزيع أو مشاركة هذا المحتوى بأي شكل من الأشكال

أي انتهاك لهذه الشروط سيعرض المخالف للحظر والمساءلة القانونية

نشكركم على احترام حقوق الملكية الفكرية

جميع المحتويات المنشورة محفوظة للمنصف ٢٠٢٥.

سؤال ١ إذا كانت س ≠ صفر قارن بين:

ـ القيمة الأولى: ٢ | ـ٥س | ـ القيمة الثانية: ٥ | ـ٢س |

أ) القيمة الأولى أكبر

ب) القيمة الثانية أكبر

ج) القيمتان متساويتان

د) المعطيات غير كافية

fd-3d16-4f7e-9a95-2204c

الإجابة الصحيحة: ج

جميع المحتويات المنشورة محفوظة للمنصف ٢٠٢٥.

سؤال ٢ إذا كان $\frac{٥}{س} - \frac{٢}{٧} = \frac{٣}{س}$ ، فما قيمة س؟

أ ٢
ب ٥
ج ٦
د ٧

الإجابة الصحيحة: د

جميع المحتويات المنشورة محفوظة للمنصف ٢٠٢٥.

سؤال ٣ في الشكل المجاور: أوجد قيمة س ؟

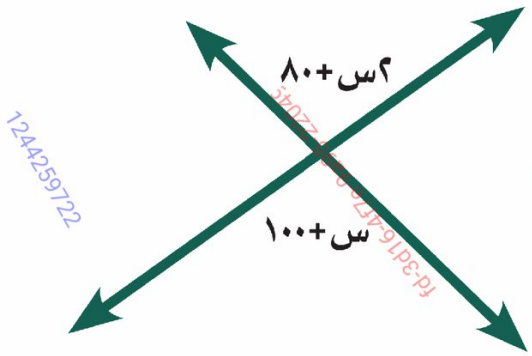

أ ٢٠ ب ٤٠ ج ٣٠ د ٦٠

الإجابة الصحيحة: أ

جميع المحتويات المنشورة محفوظة للمنصف ٢٠٢٥.

سؤال ٤ إذا كان ب = ق = $\sqrt{٢}$ أوجد قيمة −٢ ق^{٢} ب^{٢} ؟

أ ٨$\sqrt{٢}$

ب −٨$\sqrt{٢}$

ج ٨

د −٨

الإجابة الصحيحة: د

جميع المحتويات المنشورة محفوظة للمنصف ٢٠٢٥.

سؤال ٥

$$\frac{\frac{١}{٤}}{\frac{١}{٧}} \times \left\{ \frac{\frac{١}{٤}}{\frac{١}{٧}} \times \frac{٤}{٧} \right\}$$

أ $\frac{٧}{٤}$

ب $\frac{١}{٢}$

ج $\frac{٥}{٦}$

د $\frac{٤}{٧}$

الإجابة الصحيحة: أ

جميع المحتويات المنشورة محفوظة للمنصف ٢٠٢٥.

سؤال ٦

$$\frac{٧}{٤} \div \left\{ \frac{٦}{٥} \times \frac{٥}{٤} \right\}$$

$$\left\{ \frac{٥}{٦} \times \frac{٤}{٥} \right\}$$

أ $\frac{٧}{٤}$

ب $\frac{١}{٢}$

ج $\frac{٥}{٦}$

د $\frac{٤}{٧}$

fd-3d16-4f7e-9a95-22049
1244259722

الإجابة الصحيحة: أ

جميع المحتويات المنشورة محفوظة للمنصف ٢٠٢٥.

سؤال ٧ إذا كانت أسهم سليمان ٣ أضعاف أسهم عامر في الشركة ، وكانت أسهم عامر ٦٠٠ سهم، فكم مجموع أسهم سليمان وعامر؟

أ ٦٠٠ ب ١٢٠٠ ج ١٨٠٠ د ٢٤٠٠

الإجابة الصحيحة: د

جميع المحتويات المنشورة محفوظة للمنصف ٢٠٢٥.

سؤال ٨ سيارة ثمنها ٩٠٠٠٠ إذا انخفض سعرها في السنة الأولى بنسبة الثلث وفي السنة الثانية انخفض ربع سعرها أوجد قيمة السيارة بعد السنة الثانية ؟

أ ٦٠٠٠٠ ب ٥٠٠٠٠ ج ٣٥٠٠٠ د ٤٥٠٠٠

الإجابة الصحيحة: د

جميع المحتويات المنشورة محفوظة للمنصف ٢٠٢٥.

سؤال ٩ ب جـ = د هـ = $\frac{١}{٢}$ جـ د ، قارن بين :

- القيمة الأولى : مساحة Δ أ ب جـ + مساحة Δ أ د هـ
- القيمة الثانية : مساحة Δ أ جـ د

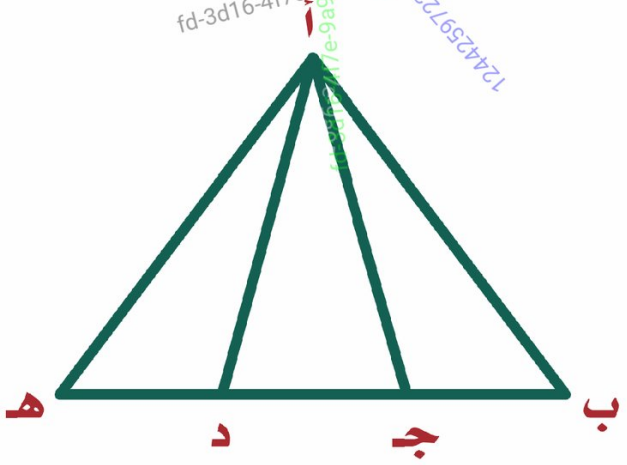

أ القيمة الأولى أكبر

ب القيمة الثانية أكبر

ج القيمتان متساويتان

د المعطيات غير كافية

الإجابة الصحيحة: ج

جميع المحتويات المنشورة محفوظة للمنصف ٢٠٢٥.

سؤال ١٠ شخص يبيع أجهزه كمبيوتر ويأخذ على كل جهاز عمولة ٥٪ وباع ١٠ واستلم ٣٠٠٠ ريال فكم سعر الجهاز ؟

أ ٦٠٠٠
ب ٥٠٠
ج ٦٠٠
د ٦٠

1244259722

الإجابة الصحيحة: أ

جميع المحتويات المنشورة محفوظة للمنصف ٢٠٢٥.

سؤال ١١ أوجد طول الشجرة؟

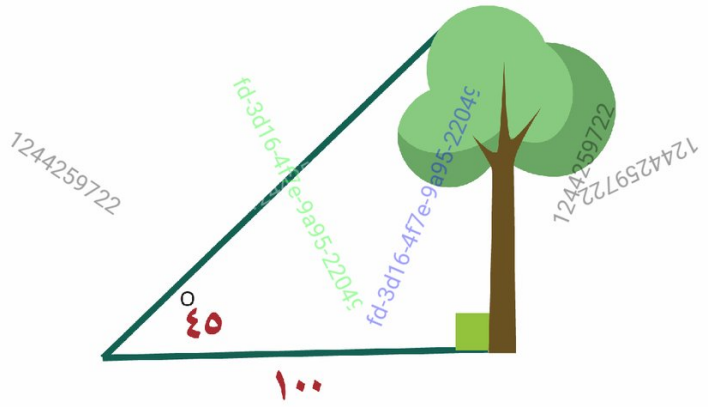

أ ٥٠
ب ١٠٠
ج ١٢٠
د ١٥٠

الإجابة الصحيحة: ب

جميع المحتويات المنشورة محفوظة للمنصف ٢٠٢٥.

سؤال ١٢ يوجد ٣٠٠٠ طالب و طالبة في جامعة ، ونسبة الطلاب في الكليات ٦٠ ٪ ، ومنهم ٧٠ ٪ في كلية العلوم ، فكم عدد الطلاب في كلية العلوم ؟

fd-3d16-4f7e-9a95-2204

أ ٥٤٠ ب ٨٤٠ ج ٣٤٠ د ١٢٦٠

الإجابة الصحيحة: د

جميع المحتويات المنشورة محفوظة للمنصف ٢٠٢٥.

سؤال ١٣ اكمل النمط ١٨ ، ٢٢ ، ٢٥ ، ٢٧ ، .....

أ ٢٨ ب ٣٠ ج ٤٠ د ٦٠

الإجابة الصحيحة: أ

جميع المحتويات المنشورة محفوظة للمنصف ٢٠٢٥.

سؤال ١٤ ما نسبة مساحة المظلل إلى الشكل؟

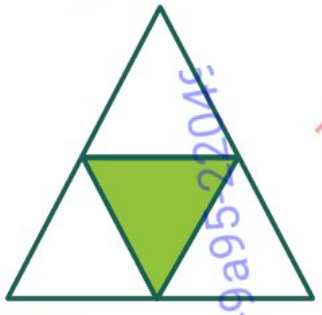

أ $\frac{١}{٤}$ ب ٢ ج $\frac{١}{٢}$ د $\frac{١}{٨}$

الإجابة الصحيحة: أ

جميع المحتويات المنشورة محفوظة للمنصف ٢٠٢٥.

سؤال ١٥ إذا كان معدل الإنتاج الأسبوعي ثابت ، أوجد معدل إنتاج البط السنوي؟

الفئة	معدل الانتاج الأسبوعي
بط	٥
حمام	٢٠
دجاج	١٥

أ ٢٥٠ ب ٣٠٠ ج ٤٥٠ د ٥٠٠

الإجابة الصحيحة: أ

جميع المحتويات المنشورة محفوظة للمنصف ٢٠٢٥.

سؤال ١٦ أوجد قيمة ص؟

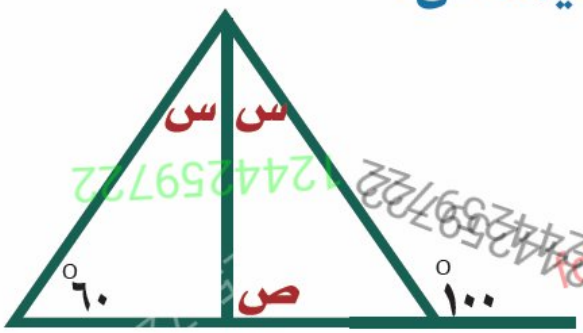

أ ٥٠ ب ٤٠ ج ٧٠ د ٨٠

الإجابة الصحيحة: د

جميع المحتويات المنشورة محفوظة للمنصف ٢٠٢٥.

سؤال ١٧ ما العدد الذي يقبل القسمة على ٥ والباقي ٤ ويقبل القسمة على ٤ والباقي ٣ ؟

أ ١٤ ب ٢٩ ج ٣٩ د ٢٤

الإجابة الصحيحة: ج

جميع المحتويات المنشورة محفوظة للمنصف ٢٠٢٥.

سؤال ١٨ معدل التضخم

	٢٠٠٣	٢٠٠٤	٢٠٠٥	٢٠٠٦	٢٠٠٧
البحرين	٠,٧	٢,٤	٢,٨	٢,٩	٢,٩
السعودية	١,١	٢,١	٢,٢	١,٤	١,٣
قطر	١,٢	١	٢,١	٢,٤	١,٦
الكويت	١,١	١,٢	١,١	١,٥	١,٧
الامارات	٢,٧	٢,٣	٢,٥	١,٨	١,٩
مجلس التعاون	١,٦	٢,٤	٢,٦	٢,٨	٢,٩
دول اليورو	٢,٢	٢,٣	٢,١	٢,٣	٢,٥

في أي عام كان معدل التضخم في دول اليورو أكبر من دول مجلس التعاون؟

أ ٢٠٠٣ ب ٢٠٠٥ ج ٢٠٠٦ د ٢٠٠٧

الإجابة الصحيحة: أ

جميع المحتويات المنشورة محفوظة للمنصف ٢٠٢٥.

	٢٠٠٣	٢٠٠٤	٢٠٠٥	٢٠٠٦	٢٠٠٧
البحرين	٠,٧	٢,٤	٢,٨	٢,٩	٢,٩
السعودية	١,١	٢,١	٢,٢	١,٤	١,٣
قطر	١,٢	١	٢,١	٢,٤	١,٦
الكويت	١,١	١,٢	١,١	١,٥	١,٧
الامارات	٢,٧	٢,٣	٢,٥	١,٨	١,٩
مجلس التعاون	١,٦	٢,٤	٢,٦	٢,٨	٢,٩
دول اليورو	٢,٢	٢,٣	٢,١	٢,٣	٢,٥

سؤال ١٩ في الجدول السابق ما الدولة التي ثبت فيها معدل التضخم في عاميين متتالين؟

أ السعودية
ب قطر
ج الكويت
د البحرين

الإجابة الصحيحة: د

جميع المحتويات المنشورة محفوظة للمنصف ٢٠٢٥.

سؤال ٢٠ اذا كان $\frac{٣}{س} = \frac{١٢}{٢٤}$ ، اوجد قيمة س

أ ٥
ب ٦
ج ٧
د ٤

الإجابة الصحيحة: ب

جميع المحتويات المنشورة محفوظة للمنصف ٢٠٢٥.

سؤال ٢١ اذا كان س = $\frac{\frac{٥}{٦}}{\frac{٦}{٥}}$ و ص = $\frac{\frac{٦}{٥}}{\frac{٥}{٦}}$ ، قارن بين:

1244259722

- القيمة الأولى: س × ص
- القيمة الثانية: ١

أ القيمة الأولى أكبر

ب القيمة الثانية أكبر

ج القيمتان متساويتان

د المعطيات غير كافية

الإجابة الصحيحة: ج

جميع المحتويات المنشورة محفوظة للمنصف ٢٠٢٥.

سؤال ٢٢ إذا كانت س + ص = ٧ فقارن بين :

- القيمة الأولى : طول الخط أب
- القيمة الثانية : ١٤

أ القيمة الأولى أكبر

ب القيمة الثانية أكبر

ج القيمتان متساويتان

د المعطيات غير كافية

الإجابة الصحيحة: ج

جميع المحتويات المنشورة محفوظة للمنصف ٢٠٢٥.

سؤال ٢٣ هناك طابور وكان بين خالد وأحمد ٥ أفراد، وخلف خالد ٣ أفراد وبعد أحمد ٦ أفراد، ما عدد الأفراد في الطابور؟

أ ١٤ ب ١٥ ج ١٦ د ١٧

الإجابة الصحيحة: ج

جميع المحتويات المنشورة محفوظة للمنصف ٢٠٢٥.

سؤال ٢٤ أكمل النمط: ١ ، ٢ ، ٥ ، ١٠ ، .....

أ ٢٠ ب ١٥ ج ١٧ د ١٣

الإجابة الصحيحة: ج

جميع المحتويات المنشورة محفوظة للمنصف ٢٠٢٥.

سؤال ٢٥ إذا كان س = ٣٠ ، أوجد قياس الزاوية أ ب ج

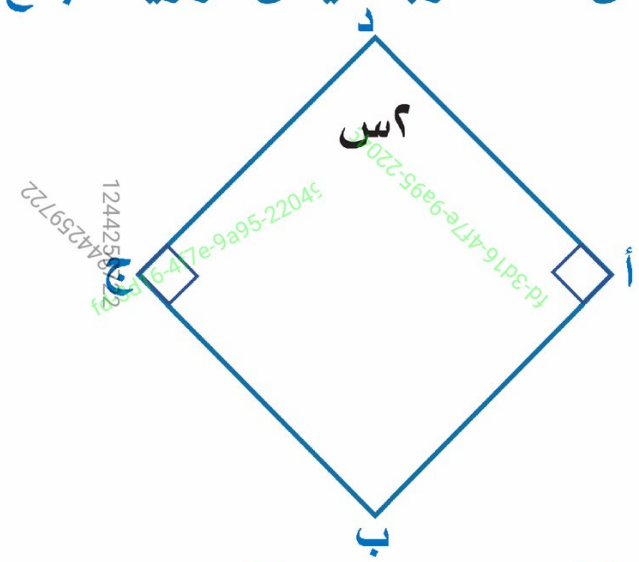

أ ٦٠ ب ١٢٠ ج ١٠٠ د ١١٠

الإجابة الصحيحة: ب

جميع المحتويات المنشورة محفوظة للمنصف ٢٠٢٥.

سؤال ٢٦ اذا كان س+ص =٥ ، س ص =١ اوجد قيمة س^{٢}+ص^{٢}

أ ٢٥
ب ٢١
ج ٢٣
د ٢٧

الإجابة الصحيحة: ج

جميع المحتويات المنشورة محفوظة للمنصف ٢٠٢٥.

سؤال ٢٧ إذا أحمد أكبر من خالد، وخالد أكبر من محمد، ومحمد أكبر من سعود، فقارن بين:

- القيمة الأولى: أحمد
- القيمة الثانية: سعود

أ) القيمة الأولى أكبر
ب) القيمة الثانية أكبر
ج) القيمتان متساويتان
د) المعطيات غير كافية

الإجابة الصحيحة: أ

جميع المحتويات المنشورة محفوظة للمنصف ٢٠٢٥.

سؤال ٢٨ قارن بين:

- القيمة الأولى: ٠,٤١
- القيمة الثانية: ٠,٤٠١

أ القيمة الأولى أكبر

ب القيمة الثانية أكبر

ج القيمتان متساويتان

د المعطيات غير كافية

1244259722

الإجابة الصحيحة: أ

جميع المحتويات المنشورة محفوظة للمنصف ٢٠٢٥.

سؤال ٢٩ أي مما يلي لا يمكن أن يكون زاوية في مثلث؟

أ ١٦٠ ب ١٧٩ ج ١٧٠ د ١٨٩

الإجابة الصحيحة: د

جميع المحتويات المنشورة محفوظة للمنصف ٢٠٢٥.

سؤال ٣٠ بالاستعانة بالشكل المجاور: ما المجموع الكلي للكتب المستعارة؟

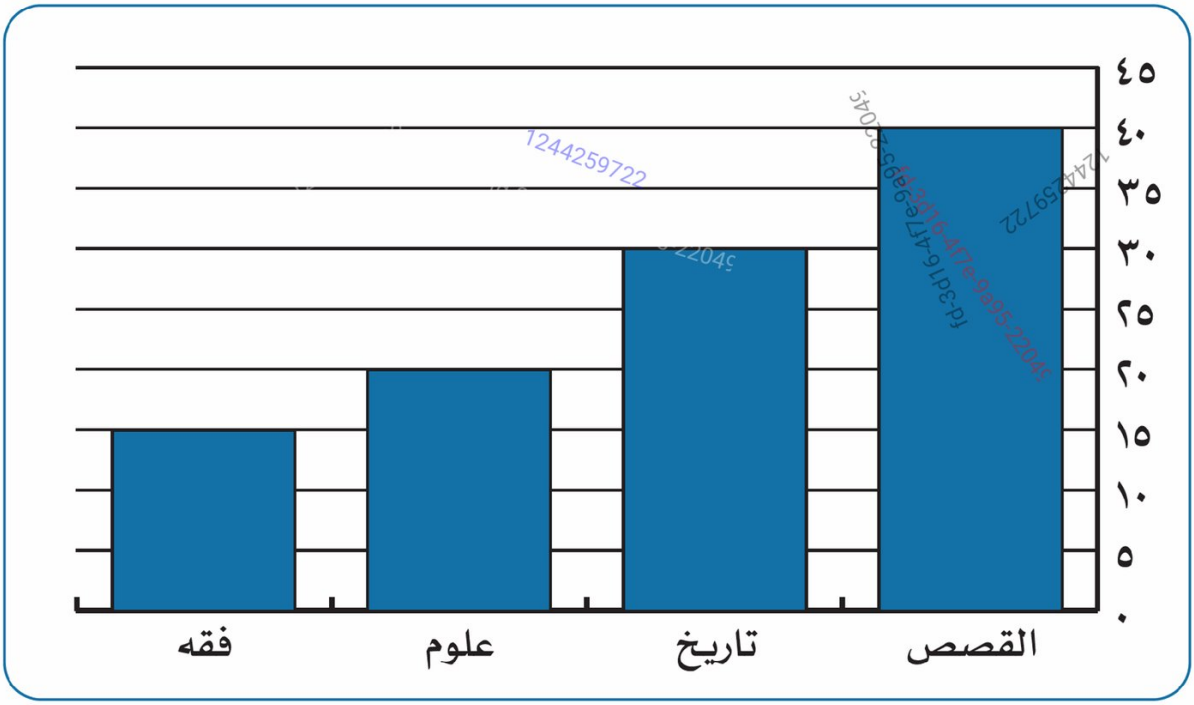

أ ١٠٥ ب ١٢٠ ج ١٣٠ د ٩٥

الإجابة الصحيحة: أ

جميع المحتويات المنشورة محفوظة للمنصف ٢٠٢٥.

سؤال ٣١ اوجد متوسط عامي ١٣٥١ و ١٣٥٩

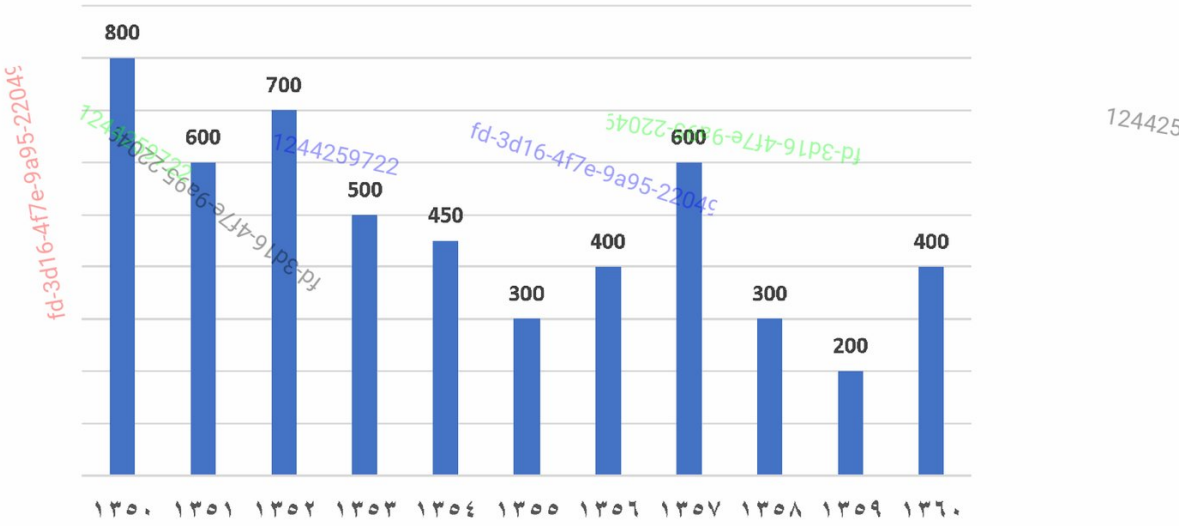

أ ٣٠٠ ب ٤٠٠ ج ٣٣٠ د ٣٥٠

الإجابة الصحيحة: ب

جميع المحتويات المنشورة محفوظة للمنصف ٢٠٢٥.

سؤال ٣٢ اذا كان ٥ أمثال عدد = ٢٥٪من ١٢٠ ،ما هو هذا العدد ؟

أ ٣
ب ٤
ج ٥
د ٦

الإجابة الصحيحة: د

جميع المحتويات المنشورة محفوظة للمنصف ٢٠٢٥.

سؤال ٣٣ أوجد مجموع الأرقام في الشكل التالي؟

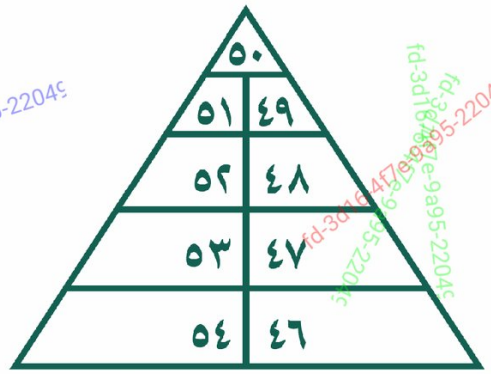

أ ٤٥٠
ب ٥٥٠
ج ٥٠٠
د ٤٠٠

الإجابة الصحيحة: أ

جميع المحتويات المنشورة محفوظة للمنصف ٢٠٢٥.

سؤال ٣٤ قارن بين:

- القيمة الأولى: الزاوية الصغرى للساعة ٢:٠٠
- القيمة الثانية: الزاوية الصغرى للساعة ١١:٢٠

أ) القيمة الأولى أكبر
ب) القيمة الثانية أكبر
ج) القيمتان متساويتان
د) المعطيات غير كافية

الإجابة الصحيحة: ب

جميع المحتويات المنشورة محفوظة للمنصف ٢٠٢٥.

سؤال ٣٥ قارن بين:

- القيمة الأولى: ١٢٠
- القيمة الثانية: س + ص

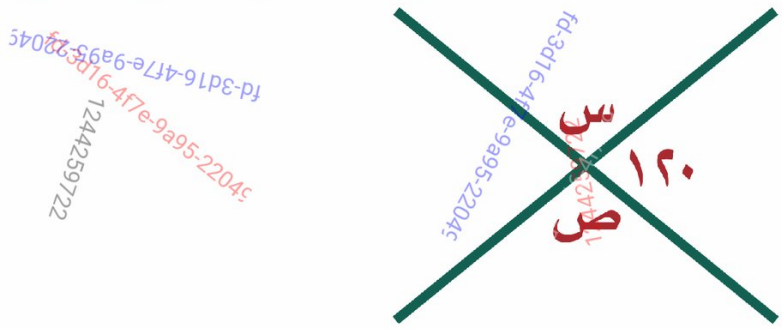

أ القيمة الأولى أكبر

ب القيمة الثانية أكبر

ج القيمتان متساويتان

د المعطيات غير كافية

الإجابة الصحيحة: ج

جميع المحتويات المنشورة محفوظة للمنصف ٢٠٢٥.

سؤال ٣٦ الشكل المجاور يوضح المسافات التي قطعتها ٤ سيارات ما أقل سيارة من حيث المسافة؟

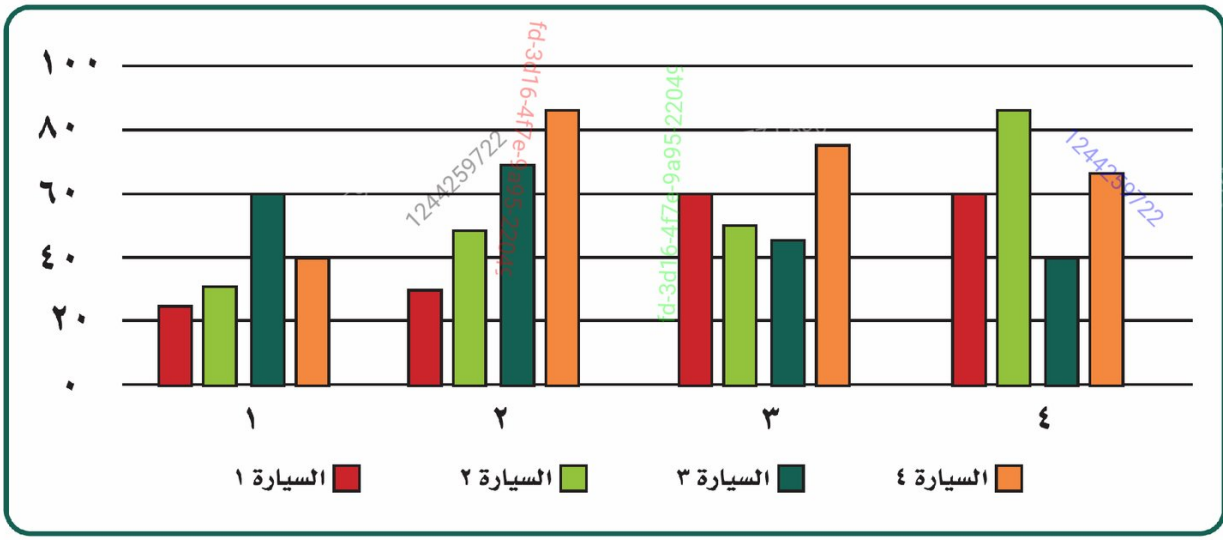

أ الاولى
ب الثانية
ج الثالثة
د الرابعة

الإجابة الصحيحة: أ

جميع المحتويات المنشورة محفوظة للمنصف ٢٠٢٥.

سؤال ٣٧ اذا كان ل = ٣ و م = -٢ قارن بين :

- القيمة الأولى : $(ل+م)^2$
- القيمة الثانية : $(ل-م)^2$

أ القيمة الأولى أكبر

ب القيمة الثانية أكبر

ج القيمتان متساويتان

د المعطيات غير كافية

الإجابة الصحيحة: ب

جميع المحتويات المنشورة محفوظة للمنصف ٢٠٢٥.

سؤال ٣٨ اوجد متوسط انتاج اقل عامين

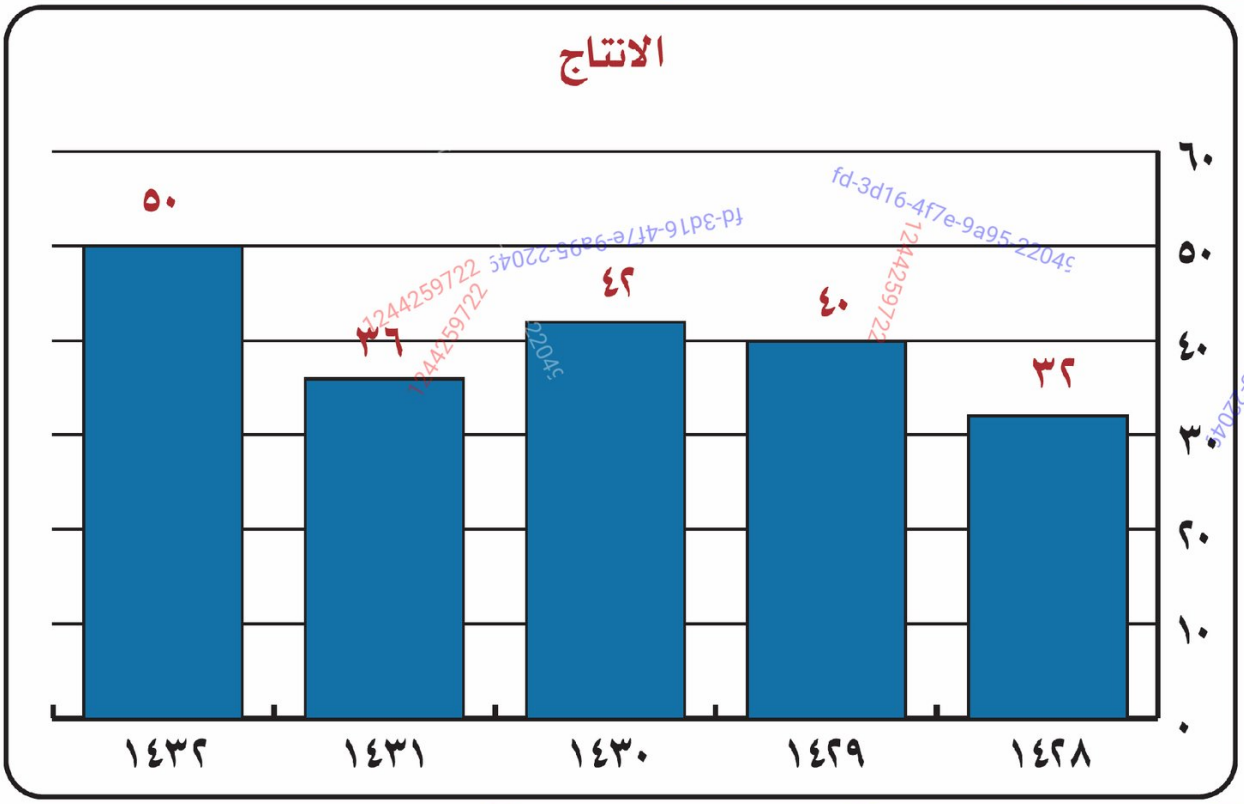

أ ٣٠ ب ٣٢ ج ٣٤ د ٣٥

الإجابة الصحيحة: ج

جميع المحتويات المنشورة محفوظة للمنصف ٢٠٢٥.

سؤال ٣٩ اذا تحرك عقرب الدقائق ١٢٠°، كم دقيقة مرت؟

أ ١٠
ب ١٥
ج ٢٠
د ٣٠

الإجابة الصحيحة: ج

جميع المحتويات المنشورة محفوظة للمنصف ٢٠٢٥.

سؤال ٤٠ سلمى لديها كرة صوف بها ١٠٠متر خيط ،استخدمت ١٠متر منها وتصنع من الباقي حبال يحتاج الحبل الواحد ٣٠متر من الخيط لصنعه, كم حبل يمكن أن تصنع سلمى ؟

أ ٢
ب ٣
ج ٤
د ٥

الإجابة الصحيحة: ب

جميع المحتويات المنشورة محفوظة للمنصف ٢٠٢٥.

سؤال ٤١ إذا كان المجموع طلاب الرياض=١٢٠٠٠٠٠، اوجد عدد المسجلين في الماجستير والدكتوراة

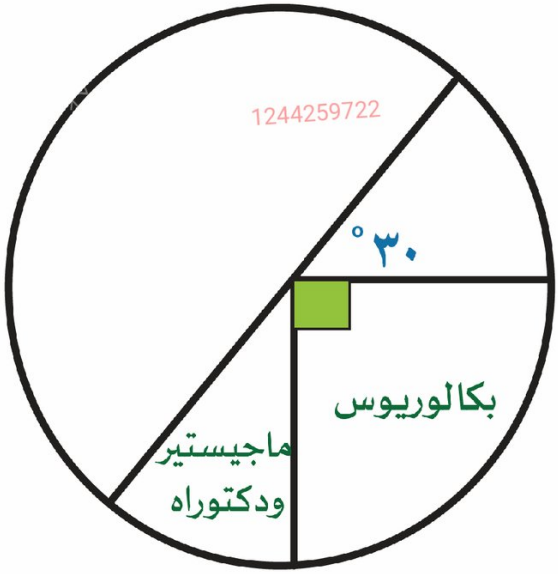

1244259722
1244259722
1244259722

أ) ٥٠٠٠٠٠ ب) ١٠٠٠٠٠ ج) ١٢٠٠٠٠ د) ٢٠٠٠٠٠

الإجابة الصحيحة: د

جميع المحتويات المنشورة محفوظة للمنصف ٢٠٢٥.

سؤال ٤٢ اذا كان أ ب = ج ب = ٨سم اوجد طول أج

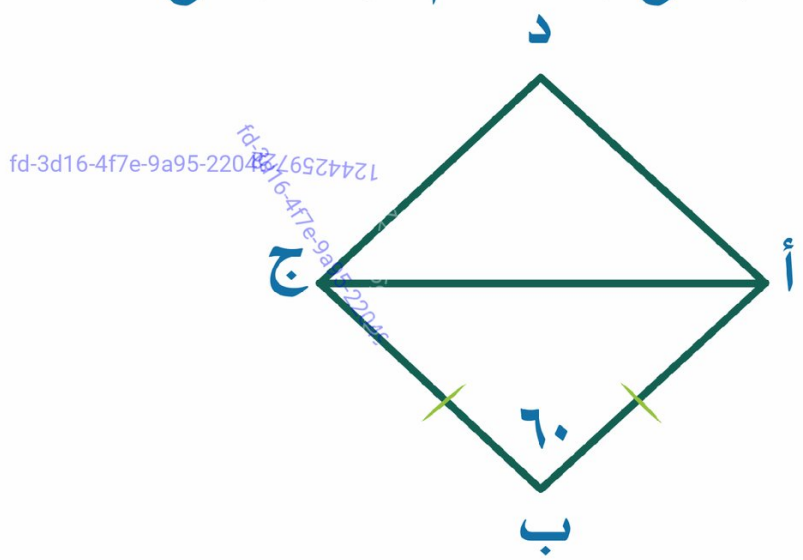

أ ٢ ب ٤ ج ٦ د ٨

الإجابة الصحيحة: د

جميع المحتويات المنشورة محفوظة للمنصف ٢٠٢٥.

سؤال ٤٣ يأخذ شخص ٧٥ ريال في الساعة ،فإذا أخذ ٦٧٥ ريال فكم ساعة عمل؟

أ ٧
ب ٨
ج ٩
د ١٠

fd-3d16-4f7e-9a95-22049
1244259722

الإجابة الصحيحة: ج

جميع المحتويات المنشورة محفوظة للمنصف ٢٠٢٥.

سؤال ٤٤ إذا كان المثلثان متطابقان، أوجد قياس زاوية د؟

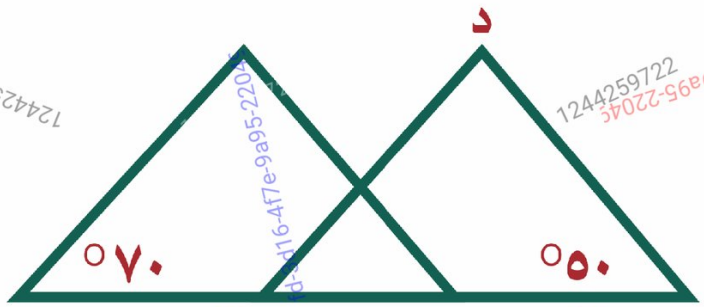

أ ٥٠ ب ٦٠ ج ٧٠ د ٨٠

الإجابة الصحيحة: ب

جميع المحتويات المنشورة محفوظة للمنصف ٢٠٢٥.

سؤال ٤٥ ما قياس زاوية أ م ن في الشكل المقابل؟

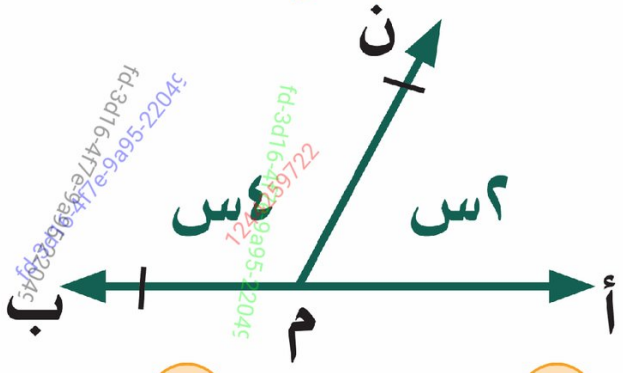

أ ١٢٠ ب ٦٠ ج ٢٤ د ٣٠

الإجابة الصحيحة: ب

جميع المحتويات المنشورة محفوظة للمنصف ٢٠٢٥.

سؤال ٤٦ في الشكل المقابل: أوجد قيمة س؟

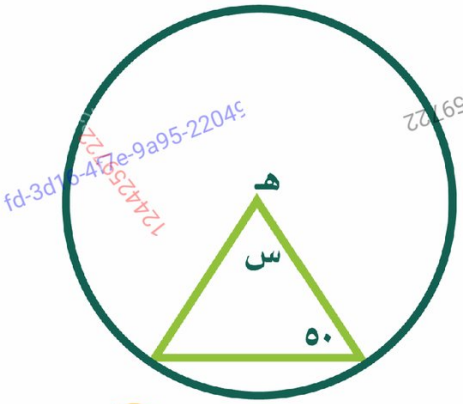

1244259722
1244259722
fd-3d16-4f7e-9a95-22049
1244259722
fd-3d16-4f7e-9a95-22049

أ ٦٠ ب ٧٠ ج ٨٠ د ٩٠

الإجابة الصحيحة: ج

جميع المحتويات المنشورة محفوظة للمنصف ٢٠٢٥.

سؤال ٤٧ أوجد نسبة المظلل إلى الشكل؟

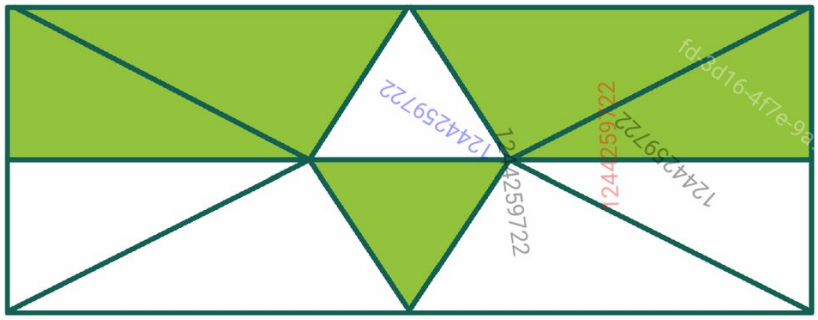

أ ٥٠٪ ب ٥٥٪ ج ٦٠٪ د ٤٠٪

الإجابة الصحيحة: أ

جميع المحتويات المنشورة محفوظة للمنصف ٢٠٢٥.