زبدة القدرات ٢٥

النسخة المحلولة

عدد الأسئلة: ٥٥

تحذير:

هذا المحتوى مخصص حصريا للمشتركين في الدورة ولا نحلل غيرهم

يمنع منعا باتا نسخ أو توزيع أو مشاركة هذا المحتوى بأي شكل من الأشكال

أي انتهاك لهذه الشروط سيعرض المخالف للحظر والمساءلة القانونية

نشكركم على احترام حقوق الملكية الفكرية

٢٠٢٦ جميع المحتويات المنشورة محفوظة للمنصف.

جميع المحتويات المنشورة محفوظة لموقع elmonsf.com ©2025
ALMONSEF EDUCATIONAL TECHNOLOGIES RESEARCH & DEVELOPMENT L.L.C

سؤال ١ في الشكل التالي قارن بين :

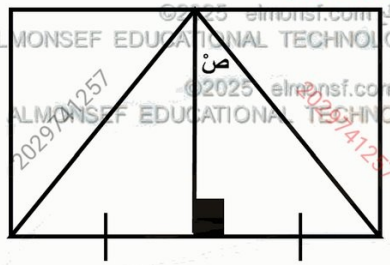

- القيمة الأولى: ص
- القيمة الثانية: ٤٠

أ القيمة الأولى أكبر
ب القيمة الثانية أكبر
ج القيمتان متساويتان
د المعطيات غير كافية

الإجابة الصحيحة: د

٢٠٢٦ جميع المحتويات المنشورة محفوظة للمنصف.

جميع المحتويات المنشورة محفوظة لموقع elmonsf.com ©2025
ALMONSEF EDUCATIONAL TECHNOLOGIES RESEARCH & DEVELOPMENT L.L.C

سؤال ٢ **قارن بين:**

- القيمة الأولى: المتوسط الحسابي للأعداد: ٣، ٤٠، ٢٠٩، ١٠٨١
- القيمة الثانية: ٤٠٣

أ القيمة الأولى أكبر
ب القيمة الثانية أكبر
ج القيمتان متساويتان
د المعطيات غير كافية

الإجابة الصحيحة: ج

٢٠٢٦ جميع المحتويات المنشورة محفوظة للمنصف.

جميع المحتويات المنشورة محفوظة لموقع elmonsf.com ©2025
ALMONSEF EDUCATIONAL TECHNOLOGIES RESEARCH & DEVELOPMENT L.L.C

سؤال ٣ إذا كان $٣\sqrt{س} - \frac{٩}{\sqrt{٤}}$ = صفر ، أوجد قيمة س

أ $\frac{١}{٢}$ ب $\frac{١}{٣}$ ج $\frac{١}{٤}$ د $\frac{١}{٨}$

الإجابة الصحيحة: ج

٢٠٢٦ جميع المحتويات المنشورة محفوظة للمنصف.

جميع المحتويات المنشورة محفوظة لموقع elmonsf.com ©2025
ALMONSEF EDUCATIONAL TECHNOLOGIES RESEARCH & DEVELOPMENT L.L.C
2029741257

سؤال ٤٩ إذا كان عدد طلاب الفيزياء ٦٠ طالب نجح الثلثين، كم عدد الطلاب الناجحين؟

أ ٦٠ ب ٤٠ ج ٣٠ د ٢٠

الإجابة الصحيحة: ب

٢٠٢٦ جميع المحتويات المنشورة محفوظة للمنصف.

جميع المحتويات المنشورة محفوظة لموقع elmonsf.com ©2025
ALMONSEF EDUCATIONAL TECHNOLOGIES RESEARCH & DEVELOPMENT L.L.C
2029741257

سؤال ٥ ما باقي قسمة ٦١٢ على ٥

أ ١ ب ٢ ج ٣ د ٤

الإجابة الصحيحة: د

٢٠٢٦ جميع المحتويات المنشورة محفوظة للمنصف.

جميع المحتويات المنشورة محفوظة لموقع elmonsf.com ©2025
ALMONSEF EDUCATIONAL TECHNOLOGIES RESEARCH & DEVELOPMENT L.L.C
2029741257

سؤال ٦

٦ عمال ينجزون في ٦ أيام ٦ مجسمات ، في كم يوم ينجز ١٢ عامل ٢٤ مجسم ؟

أ ٦ ب ١٢ ج ١٨ د ٢٤

الإجابة الصحيحة: ب

٢٠٢٦ جميع المحتويات المنشورة محفوظة للمنصف.



الإجابة الصحيحة: ج

٢٠٢٦ جميع المحتويات المنشورة محفوظة للمنصف.

جميع المحتويات المنشورة محفوظة لموقع elmonsf.com ©2025
ALMONSEF EDUCATIONAL TECHNOLOGIES RESEARCH & DEVELOPMENT L.L.C

سؤال ٨ الشكل التالي: دائرتان متحدتا المركز، ما الفرق بين محيطي الدائرتين؟

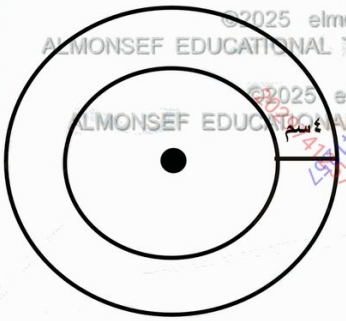

أ ٢ط
ب ٤ط
ج ٦ط
د ٨ط

الإجابة الصحيحة: د

٢٠٢٦ جميع المحتويات المنشورة محفوظة للمنصف.

جميع المحتويات المنشورة محفوظة لموقع elmonsf.com ©2025
ALMONSEF EDUCATIONAL TECHNOLOGIES RESEARCH & DEVELOPMENT L.L.C

سؤال ٩ في الشكل التالي :
احسب محيط المستطيل

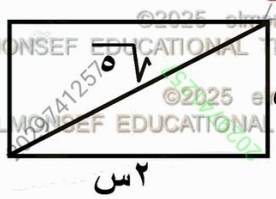

أ ٣ ب ٤ ج ٦ د ١٠

الإجابة الصحيحة: ج

جميع المحتويات المنشورة محفوظة لموقع2026 elmonsf.com ©
ALMONSEF EDUCATIONAL TECHNOLOGIES RESEARCH & DEVELOPMENT L.L.C

سؤال ١٠ إذا كان يُوضع في الصندوق ٩ بيضات ، ومع خالد ١٢٠ بيضة ، كم صندوق يحتاج ؟

أ ١٣ ب ١٤ ج ١٥ د ١٦

الإجابة الصحيحة: ب

جميع المحتويات المنشورة محفوظة لموقع elmonsf.com ©2025
ALMONSEF EDUCATIONAL TECHNOLOGIES RESEARCH & DEVELOPMENT L.L.C

سؤال ١١ **قارن بين:**

- القيمة الأولى: مجموع قياسات زوايا مثلث قائم الزاوية
- القيمة الثانية: مجموع قياسات زوايا مثلث منفرج الزاوية

أ القيمة الأولى أكبر

ب القيمة الثانية أكبر

ج القيمتان متساويتان

د المعطيات غير كافية

الإجابة الصحيحة: ج

٢٠٢٦ جميع المحتويات المنشورة محفوظة للمنصف.

جميع المحتويات المنشورة محفوظة لموقع elmonsf.com ©2025
ALMONSEF EDUCATIONAL TECHNOLOGIES RESEARCH & DEVELOPMENT L.L.C

سؤال ١٢ **قارن بين :**

- القيمة الأولى: مجموع قياسات زوايا الشكل الرباعي
- القيمة الثانية: ١٨٠

أ) القيمة الأولى أكبر
ب) القيمة الثانية أكبر
ج) القيمتان متساويتان
د) المعطيات غير كافية

الإجابة الصحيحة: أ

٢٠٢٦ جميع المحتويات المنشورة محفوظة للمنصف.

صيغة مشابهة

جميع المحتويات المنشورة محفوظة لموقع elmonsf.com ©2025
ALMONSEF EDUCATIONAL TECHNOLOGIES RESEARCH & DEVELOPMENT L.L.C
2029741257

سؤال ١٣ إذا كان راتب احمد ١٠٠٠٠ ريال ، فما المبلغ الذي يوفره؟

أ ٢٠٠٠ ب ٢١٠٠ ج ٢١٥٠ د ٢٢٠٠

الإجابة الصحيحة: أ

٢٠٢٦ جميع المحتويات المنشورة محفوظة للمنصف.

صيغة مشابهة

جميع المحتويات المنشورة محفوظة لموقع elmonsf.com ©2025
ALMONSEF EDUCATIONAL TECHNOLOGIES RESEARCH & DEVELOPMENT L.L.C

سؤال ١٤

إذا كان راتب احمد ١٠٠٠٠ ريال ، فما مبلغ مصروفات احمد

أ ٨٠٠٠ ب ٨١٠٠ ج ٨٢٠٠ د ٨٢٥٠

الإجابة الصحيحة: أ

٢٠٢٦ جميع المحتويات المنشورة محفوظة للمنصف.

جميع المحتويات المنشورة محفوظة لموقع elmonsf.com ©2025
ALMONSEF EDUCATIONAL TECHNOLOGIES RESEARCH & DEVELOPMENT L.L.C

سؤال ١٥ **قارن بين :**

- القيمة الأولى: حجم غرفة أبعادها ٣م، ٤م، ٥م
- القيمة الثانية: حجم غرفة أبعادها $3\frac{1}{2}$م، $4\frac{1}{2}$م

أ القيمة الأولى أكبر

ب القيمة الثانية أكبر

ج القيمتان متساويتان

د المعطيات غير كافية

الإجابة الصحيحة: ب

٢٠٢٦ جميع المحتويات المنشورة محفوظة للمنصف.

خيارات مشابهة

جميع المحتويات المنشورة محفوظة لموقع elmonsf.com ©2025
ALMONSEF EDUCATIONAL TECHNOLOGIES RESEARCH & DEVELOPMENT L.L.C

سؤال ١٦ دائرة طول نصف قطرها س
فإذا كان محيط الدائرة عدديًا أكبر من مساحتها،
أي الأتي صحيح :

أ ٠ < س < ط
ب ٠ < س < ٢
ج س < ٢
د س > ط

الإجابة الصحيحة: ب

٢٠٢٦ جميع المحتويات المنشورة محفوظة للمنصف.

جميع المحتويات المنشورة محفوظة لموقع elmonsf.com ©2025
ALMONSEF EDUCATIONAL TECHNOLOGIES RESEARCH & DEVELOPMENT L.L.C

سؤال ١٧ اختبار مدته ٩٠ دقيقة به عدد من الاقسام و بين كل قسمين ٥ دقائق راحة ، فإذا بدأ الاختبار الساعة ٨:٠٠ وانتهي الساعة ٩:٥٥ ، كم عدد أقسام الاختبار؟

أ ٧ ب ٦ ج ٥ د ٤

الإجابة الصحيحة: ب

٢٠٢٦ جميع المحتويات المنشورة محفوظة للمنصف.

جميع المحتويات المنشورة محفوظة لموقع elmonsf.com ©2025
ALMONSEF EDUCATIONAL TECHNOLOGIES RESEARCH & DEVELOPMENT L.L.C

سؤال ١٨ تُوفي أب وعليه دين ولديه ٣ ابناء سدد الأول نصف قيمة الدين وسدد الثاني ٣٠٪ من قيمة الدين وسدد الثالث ٤٠٠٠ ريال ، ما اجمالى مبلغ الدين ؟

أ ١٨٠٠٠ ب ٢٠٠٠٠ ج ٢١٠٠٠ د ٢٥٠٠٠

الإجابة الصحيحة: ب

٢٠٢٦ جميع المحتويات المنشورة محفوظة للمنصف.

صيغة مشابهة

جميع المحتويات المنشورة محفوظة لموقع elmonsf.com ©2025
ALMONSEF EDUCATIONAL TECHNOLOGIES RESEARCH & DEVELOPMENT L.L.C

سؤال ١٩ إذا كان انتاج المصنع الشهري ٤٠٠٠ قطعة ، كم عدد قطع الدانتيل الزائدة عن الشيفون؟

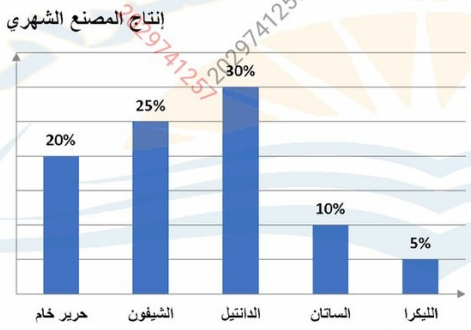

أ ١٠٠ ب ١٢٠ ج ١٥٠ د ٢٠٠

الإجابة الصحيحة: د

٢٠٢٦ جميع المحتويات المنشورة محفوظة للمنصف.

صيغة مشابهة

جميع المحتويات المنشورة محفوظة لموقع elmonsf.com ©2025
ALMONSEF EDUCATIONAL TECHNOLOGIES RESEARCH & DEVELOPMENT L.L.C

سؤال ٢٠ إذا كان انتاج المصنع الشهري ٤٠٠٠ قطعة كم عدد اقمشة الدانتيل المنتجه في الشهر؟

2029741257

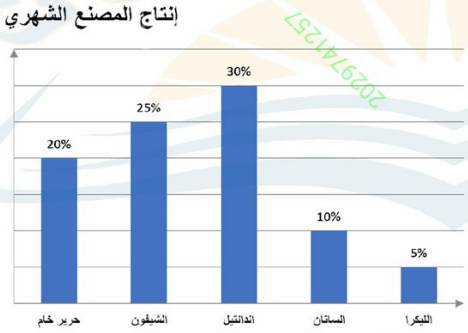

أ ١٠٠٠ ب ١١٠٠ ج ١٢٠٠ د ١٥٠٠

الإجابة الصحيحة: ج

جميع المحتويات المنشورة محفوظة لموقع elmonsf.com ©2025
ALMONSEF EDUCATIONAL TECHNOLOGIES RESEARCH & DEVELOPMENT L.L.C
2029741257

سؤال ٢١ مربع طول ضلعه ٦ سم ، قُسم إلى مستطيلين متطابقين فإذا وضعا بجانب بعضهما كونا مستطيل ، ما محيط هذا المستطيل؟

أ ٢٠ ب ٢٥ ج ٣٠ د ٣٦

الإجابة الصحيحة: ج

٢٠٢٦ جميع المحتويات المنشورة محفوظة للمنصف.

جميع المحتويات المنشورة محفوظة لموقع elmonsf.com ©2025
ALMONSEF EDUCATIONAL TECHNOLOGIES RESEARCH & DEVELOPMENT L.L.C

سؤال ٢٢ باع محل بـ ٢٠٠ ريال عبوات عجوة (صغير – كبير) فإذا باع ٥ صغير بمبلغ ١٠ ريال للعبوة وباع س كبيرة بمبلغ ١٥ ريال للعبوة ، ما قيمة س

أ ٥ ب ١٠ ج ١٥ د ٢٠

الإجابة الصحيحة: ب

٢٠٢٦ جميع المحتويات المنشورة محفوظة للمنصف.

صيغة مشابهة

©2025 elmonsf.com جميع المحتويات المنشورة محفوظة لموقع
ALMONSEF EDUCATIONAL TECHNOLOGIES RESEARCH & DEVELOPMENT L.L.C

سؤال ٢٣ في الشكل التالي :

مستطيل بداخله ٦ مربعات والاعداد داخل المربعات تمثل مساحتها ، احسب محيط المستطيل الكبير

أ ٢٤ ب ٣٦ ج ٤٨ د ٦٠

الإجابة الصحيحة: ج

٢٠٢٦ جميع المحتويات المنشورة محفوظة للمنصف.

جميع المحتويات المنشورة محفوظة لموقع elmonsf.com ©2025
ALMONSEF EDUCATIONAL TECHNOLOGIES RESEARCH & DEVELOPMENT L.L.C

سؤال ٢٤ مستطيلان متساويان في المساحة مساحة الاول = ١٢٠ سم^{٢} وطول المستطيل الثاني ١٢ سم ، ما محيط المستطيل الثاني؟

أ) ٤٠ ب) ٤٢ ج) ٤٤ د) ٤٨

الإجابة الصحيحة: ج

٢٠٢٦ جميع المحتويات المنشورة محفوظة للمنصف.

جميع المحتويات المنشورة محفوظة لموقع elmonsf.com ©2025
ALMONSEF EDUCATIONAL TECHNOLOGIES RESEARCH & DEVELOPMENT L.L.C
2029741257

سؤال ٢٥ إذا كان ب = $\sqrt{٣٧٩}$ ، ٢ب = $\sqrt{٧٣}$س ، أوجد قيمة س

أ ١٨ ب ٣٦ ج ٧٢ د ١٠٨

الإجابة الصحيحة: د

جميع المحتويات المنشورة محفوظة لموقع elmonsf.com ©2025
ALMONSEF EDUCATIONAL TECHNOLOGIES RESEARCH & DEVELOPMENT L.L.C
2029741257

سؤال ٢٦ قارن بين :

- القيمة الأولى : $-\frac{١}{٢} \div -\frac{١}{٢}$
- القيمة الثانية : ١

أ القيمة الأولى أكبر

ب القيمة الثانية أكبر

ج القيمتان متساويتان

د المعطيات غير كافية

الإجابة الصحيحة: ج

جميع المحتويات المنشورة محفوظة لموقع elmonsf.com ©2025
ALMONSEF EDUCATIONAL TECHNOLOGIES RESEARCH & DEVELOPMENT L.L.C
2029741257

سؤال ٢٧ إذا كان س = $\frac{١٠}{ص}$ = $\frac{س}{ص}$ ، أوجد قيمة ص

أ ١ ب ١٠ ج ٥٠ د ١٠٠

الإجابة الصحيحة: أ

٢٠٢٦ جميع المحتويات المنشورة محفوظة للمنصف.

جميع المحتويات المنشورة محفوظة لموقع elmonsf.com ©2025
ALMONSEF EDUCATIONAL TECHNOLOGIES RESEARCH & DEVELOPMENT L.L.C

سؤال ٢٨ قارن بين :

- القيمة الأولى: $(٠,٢٥)^{٣} - (٠,٢٥)^{٤}$
- القيمة الثانية: $(٠,٢٥)^{٤} - (٠,٢٥)^{٣}$

أ القيمة الأولى أكبر
ب القيمة الثانية أكبر
ج القيمتان متساويتان
د المعطيات غيركافية

الإجابة الصحيحة: أ

٢٠٢٦ جميع المحتويات المنشورة محفوظة للمنصف.

جميع المحتويات المنشورة محفوظة لموقع elmonsf.com ©2025
ALMONSEF EDUCATIONAL TECHNOLOGIES RESEARCH & DEVELOPMENT L.L.C

سؤال ٢٩ إذا كان $س^{٢} - ٤ = ٢$ ، $\frac{س}{ص} = ٤$ ، قارن بين:

- القيمة الأولى: س
- القيمة الثانية: ص

أ القيمة الأولى أكبر

ب القيمة الثانية أكبر

ج القيمتان متساويتان

د المعطيات غير كافية

الإجابة الصحيحة: د

٢٠٢٦ جميع المحتويات المنشورة محفوظة للمنصف.

جميع المحتويات المنشورة محفوظة لموقع2026 elmonsf.com ©
ALMONSEF EDUCATIONAL TECHNOLOGIES RESEARCH & DEVELOPMENT L.L.C

سؤال ٣٠ قارن بين :

- القيمة الأولى: $\sqrt{٤٩}+٢٥$
- القيمة الثانية: $\sqrt{٤٩}+\sqrt{٢٥}$

أ القيمة الأولى أكبر

ب القيمة الثانية أكبر

ج القيمتان متساويتان

د المعطيات غير كافية

الإجابة الصحيحة: ب

٢٠٢٦ جميع المحتويات المنشورة محفوظة للمنصف.

جميع المحتويات المنشورة محفوظة لموقع elmonsf.com ©2025
ALMONSEF EDUCATIONAL TECHNOLOGIES RESEARCH & DEVELOPMENT L.L.C

سؤال ٣١ في الشكل التالي :
احسب مساحة الدائرة ؟

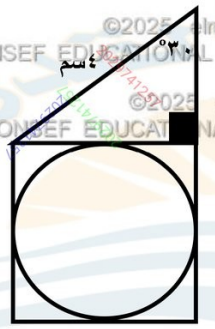

أ ط
ب ٢ط
ج ٣ط
د ٤ط

الإجابة الصحيحة: أ

٢٠٢٦ جميع المحتويات المنشورة محفوظة للمنصف.

جميع المحتويات المنشورة محفوظة لموقع elmonsf.com ©2025
ALMONSEF EDUCATIONAL TECHNOLOGIES RESEARCH & DEVELOPMENT L.L.C

سؤال ٣٢ في الشكل التالي:
اوجد قيمة س

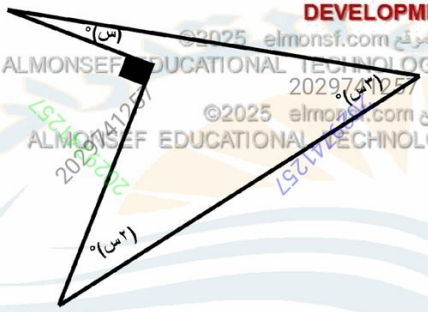

أ ١٥ ب ٣٠ ج ٤٥ د ٦٠

الإجابة الصحيحة: أ

٢٠٢٦ جميع المحتويات المنشورة محفوظة للمنصف.

جميع المحتويات المنشورة محفوظة لموقع elmonsf.com ©2025
ALMONSEF EDUCATIONAL TECHNOLOGIES RESEARCH & DEVELOPMENT L.L.C

سؤال ٣٣ شركة عدد موظفيها ١٠٠ موظف عام ١٤٣٣هـ، والشكل المجاور يبين الزيادة والنقص في عددهم خلال ٦ سنوات ، ما الفرق بين عدد الموظفين عام ١٤٣٤ ، ١٤٣٥

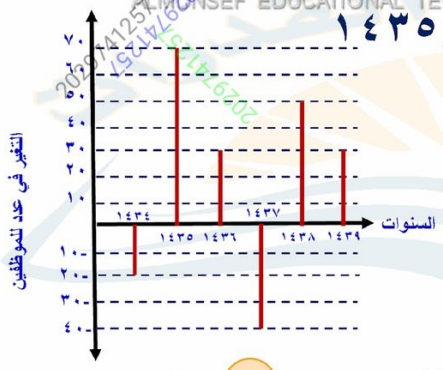

أ ٩٠ ب ٨٠ ج ٧٠ د ٦٠

الإجابة الصحيحة: ج

٢٠٢٦ جميع المحتويات المنشورة محفوظة للمنصف.

جميع المحتويات المنشورة محفوظة لموقع ©2025 elmonsf.com
ALMONSEF EDUCATIONAL TECHNOLOGIES RESEARCH & DEVELOPMENT L.L.C

سؤال ٣٤ في الشكل التالي:

قارن بين :



2029741257

- القيمة الأولى: ٤٨
- القيمة الثانية: س

أ القيمة الأولى أكبر

ب القيمة الثانية أكبر

ج القيمتان متساويتان

د المعطيات غير كافية

الإجابة الصحيحة: ج

صيغة مشابهة

جميع المحتويات المنشورة محفوظة لموقع elmonsf.com ©2025
ALMONSEF EDUCATIONAL TECHNOLOGIES RESEARCH & DEVELOPMENT L.L.C

سؤال ٣٥ طالب متوسط درجاته في خمس اختبارات ٤٥ زاده المعلم ١٠ درجات لمشاركته، كم اصبح متوسط درجاته الجديد؟

أ) ٤٦ ب) ٤٧ ج) ٥٠ د) ٥٥

الإجابة الصحيحة: ب

٢٠٢٦ جميع المحتويات المنشورة محفوظة للمنصف.

١٠٠ ٪

جميع المحتويات المنشورة محفوظة لموقع elmonsf.com ©2025
ALMONSEF EDUCATIONAL TECHNOLOGIES RESEARCH & DEVELOPMENT L.L.C

سؤال ٣٦ إذا كان $\sqrt{\text{س}^{٣}} - \sqrt{\frac{٩}{٤}}$ = صفر ، أوجد قيمة س

أ $\frac{١}{٢}$ ب $\frac{١}{٣}$ ج $\frac{١}{٤}$ د $\frac{٣}{٤}$

الإجابة الصحيحة: ج

٢٠٢٦ جميع المحتويات المنشورة محفوظة للمنصف.

جميع المحتويات المنشورة محفوظة لموقع elmonsf.com ©2025
ALMONSEF EDUCATIONAL TECHNOLOGIES RESEARCH & DEVELOPMENT L.L.C

سؤال ٣٧ إذا كان أ = $\frac{١}{ب}$ ، ب = $\frac{١}{ج}$ ، ج = $\frac{١}{د}$

، د = $\frac{٦٤}{٤٩}$ ، أوجد قيمة (أ + ج)× د

أ $\frac{٣}{٢}$ ب ٢ ج $\frac{٧}{٨}$ د $\frac{٨}{٧}$

الإجابة الصحيحة: ب

٢٠٢٦ جميع المحتويات المنشورة محفوظة للمنصف.

جميع المحتويات المنشورة محفوظة لموقع elmonsf.com ©2025
ALMONSEF EDUCATIONAL TECHNOLOGIES RESEARCH & DEVELOPMENT L.L.C

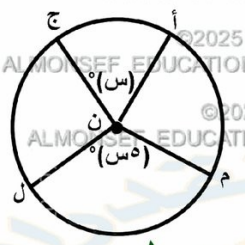

سؤال ٣٨ في الشكل التالي ن مركز الدائرة، قارن بين :

- القيمة الأولى: $\frac{\text{طول } \overset{\frown}{أج}}{\text{طول } \overset{\frown}{مل}}$
- القيمة الثانية: $\frac{١}{٥}$

أ القيمة الأولى أكبر
ب القيمة الثانية أكبر
ج القيمتان متساويتان
د المعطيات غير كافية

الإجابة الصحيحة: ج

٢٠٢٦ جميع المحتويات المنشورة محفوظة للمنصف.

جميع المحتويات المنشورة محفوظة لموقع elmonsf.com ©2025
ALMONSEF EDUCATIONAL TECHNOLOGIES RESEARCH & DEVELOPMENT L.L.C

سؤال ٣٩ احسب قيمة:

$$٢\sqrt{٣} + ٣\sqrt{٣} + \sqrt{٣}$$

أ) $٥\sqrt{٣}$ ب) $٦\sqrt{٩}$ ج) $٣\sqrt{٦}$ د) $\sqrt{١٠٨}$

الإجابة الصحيحة: د

٢٠٢٦ جميع المحتويات المنشورة محفوظة للمنصف.

جميع المحتويات المنشورة محفوظة لموقع elmonsf.com ©2025
ALMONSEF EDUCATIONAL TECHNOLOGIES RESEARCH & DEVELOPMENT L.L.C

سؤال ٤٠

مثلث قائم الزاوية ومتطابق الضلعين طول وتره ١٠ سم ، احسب مساحته

أ ١٠٠ ب ٥٠ ج ٢٥ د ١٠

الإجابة الصحيحة: ج

٢٠٢٦ جميع المحتويات المنشورة محفوظة للمنصف.

جميع المحتويات المنشورة محفوظة لموقع elmonsf.com ©2025
ALMONSEF EDUCATIONAL TECHNOLOGIES RESEARCH & DEVELOPMENT L.L.C

سؤال ٤١ إذا كان ص = $\frac{١}{٢}$ س ، ع = $\frac{١}{٢}$ ص ، س + ص + ع = ٧ ، أوجد قيمة ع

أ ١ ب ٣ ج ٥ د ٧

الإجابة الصحيحة: أ

جميع المحتويات المنشورة محفوظة لموقع elmonsf.com ©2025
ALMONSEF EDUCATIONAL TECHNOLOGIES RESEARCH & DEVELOPMENT L.L.C

سؤال ٤٢ أحسب قيمة:

$$\sqrt{\frac{٤^{٣}+٤^{٦}}{٤^{٤}+٤}}$$

أ ٤ ب ١٦ ج ٦٤ د ٢٥٦

الإجابة الصحيحة: أ

٢٠٢٦ جميع المحتويات المنشورة محفوظة للمنصف.

جميع المحتويات المنشورة محفوظة لموقع elmonsf.com ©2025
ALMONSEF EDUCATIONAL TECHNOLOGIES RESEARCH & DEVELOPMENT L.L.C
2029741257

سؤال ٤٣ إذا كان تكلفة الاتصال ٢٠ ثانية بـ ١ ريال ، ما تكلفة مكالمة لمدة ساعتين؟

أ ٦٠ ب ٩٠ ج ١٨٠ د ٣٦٠

الإجابة الصحيحة: د

جميع المحتويات المنشورة محفوظة لموقع elmonsf.com ©2025
ALMONSEF EDUCATIONAL TECHNOLOGIES RESEARCH & DEVELOPMENT L.L.C

سؤال ٤٤ في مكتبة يستوعب الرف ٣٠ كتاب، كم رف تحتاج لوضع ١٢٥ كتاب؟

أ ٤ ب ٥ ج ٦ د ٧

الإجابة الصحيحة: ب

٢٠٢٦ جميع المحتويات المنشورة محفوظة للمنصف.

جميع المحتويات المنشورة محفوظة لموقع elmonsf.com ©2025
ALMONSEF EDUCATIONAL TECHNOLOGIES RESEARCH &
DEVELOPMENT L.L.C
2029741257

سؤال ٤٥ كم عدد الاعداد الفردية المكونة من رقمين ورقم العشرات أكبر من ٣؟

أ ١١ ب ٢٥ ج ٣٠ د ٣٦

الإجابة الصحيحة: ج

جميع المحتويات المنشورة محفوظة لموقع elmonsf.com ©2025
ALMONSEF EDUCATIONAL TECHNOLOGIES RESEARCH & DEVELOPMENT L.L.C

سؤال ٤٦ الشكل التالي يمثل مصروفات سلطان شهريا
إذا كان اجمالي مصروفاته ٥٠٠٠ ريال شهريا
، نسبة ما صرفه في السفر ٦٥٪ مما صرف في الترفيه
، أوجد المبلغ الذي صرفه سلطان في السفر

أ ١٦٥٠ ب ٦٥٠ ج ٣٢٥ د ٢٥٠

الإجابة الصحيحة: ب

٢٠٢٦ جميع المحتويات المنشورة محفوظة للمنصف.

جميع المحتويات المنشورة محفوظة لموقع elmonsf.com ©2025
ALMONSEF EDUCATIONAL TECHNOLOGIES RESEARCH & DEVELOPMENT L.L.C
2029741257

سؤال ٤٧ كم عدد يحتوي على ٢ أو ٣ أو كليهما من ١ إلى ٤٠؟

أ ٢
ب ٢٣
ج ٢٤
د ٢٥

الإجابة الصحيحة: ج

٢٠٢٦ جميع المحتويات المنشورة محفوظة للمنصف.

جميع المحتويات المنشورة محفوظة لموقع elmonsf.com ©2025
ALMONSEF EDUCATIONAL TECHNOLOGIES RESEARCH & DEVELOPMENT L.L.C

سؤال ٤٨ إذا كان ٨ س^{٢} = ٦٤ ، أوجد ٣س ؟

أ ١٦ ب ٢٤ ج ٢٨ د ٣٢

الإجابة الصحيحة: ب

٢٠٢٦ جميع المحتويات المنشورة محفوظة للمنصف.

جميع المحتويات المنشورة محفوظة لموقع elmonsf.com ©2025
ALMONSEF EDUCATIONAL TECHNOLOGIES RESEARCH & DEVELOPMENT L.L.C

سؤال ٤٩ إذا كان ٤س+١ = ٢ ٤س ، أوجد قيمة س

أ ٠ ب $\frac{١}{٤}$ ج $\frac{١}{٢}$ د ١

الإجابة الصحيحة: د

جميع المحتويات المنشورة محفوظة لموقع elmonsf.com ©2025
ALMONSEF EDUCATIONAL TECHNOLOGIES RESEARCH & DEVELOPMENT L.L.C

سؤال ٥٠ كم إجمالي الواردات ؟

أ ١١٠ ب ١٢٠ ج ١٢٥ د ١٣٥

الإجابة الصحيحة: ج

٢٠٢٦ جميع المحتويات المنشورة محفوظة للمنصف.

جميع المحتويات المنشورة محفوظة لموقع elmonsf.com ©2025
ALMONSEF EDUCATIONAL TECHNOLOGIES RESEARCH & DEVELOPMENT L.L.C
2029741257

سؤال ٥١ إذا كان عدد الراسبين ثلث عدد الناجحين، وكان عدد الناجحين = ٩٠، فكم عدد طلاب المدرسة ؟

أ ١٢٠ ب ١٣٠ ج ١٤٠ د ١٥٠

الإجابة الصحيحة: أ

٢٠٢٦ جميع المحتويات المنشورة محفوظة للمنصف.

جميع المحتويات المنشورة محفوظة لموقع elmonsf.com ©2025
ALMONSEF EDUCATIONAL TECHNOLOGIES RESEARCH & DEVELOPMENT L.L.C

سؤال ٥٢ إذا كان $(\text{ص})^{٢} = ٨١$ ، قارن بين :

- القيمة الأولى: $\text{ص}^{٢}$
- القيمة الثانية: ٦

أ القيمة الأولى أكبر

ب القيمة الثانية أكبر

ج القيمتان متساويتان

د المعطيات غير كافية

الإجابة الصحيحة: أ

٢٠٢٦ جميع المحتويات المنشورة محفوظة للمنصف.

جميع المحتويات المنشورة محفوظة لموقع elmonsf.com ©2025
ALMONSEF EDUCATIONAL TECHNOLOGIES RESEARCH & DEVELOPMENT L.L.C

سؤال ٥٣ إذا كان م = $\frac{٣١}{٥٠}$ ، ن = $\frac{٥٩}{١٠٠}$ ، ل = $\frac{٢٩٩}{٥٠٠}$

فأي الآتي ترتيبهم تصاعديًا ؟

أ ن، ل، م
ب ن، م، ل
ج م، ن، ل
د م، ل، ن

الإجابة الصحيحة: أ

٢٠٢٦ جميع المحتويات المنشورة محفوظة للمنصف.

جميع المحتويات المنشورة محفوظة لموقع elmonsf.com ©2025
ALMONSEF EDUCATIONAL TECHNOLOGIES RESEARCH & DEVELOPMENT L.L.C
2029741257

سؤال ٥٤ إذا كان س < ٠ ، أي الآتي موجب؟

أ ٢س
ب س$^{-١}$
ج - س$^{-١}$
د - س^{٢}

الإجابة الصحيحة: ج

جميع المحتويات المنشورة محفوظة لموقع2026 elmonsf.com ©
ALMONSEF EDUCATIONAL TECHNOLOGIES RESEARCH & DEVELOPMENT L.L.C

سؤال ٥٥ عائلة بها ٣ أبناء يعيشون بعيدين عن منزل العائلة ، الأول يزور العائلة كل ٢ يوم والثاني يزور العائلة كل ٣ أيام ، والثالث يزور العائلة كل ٥ أيام ، فإذا التقوا معًا أول العام ، كم مرة يجتمعون جميعًا خلال ٦٠ يوم ؟

أ ١ ب ٢ ج ٣ د ٤

الإجابة الصحيحة: ب

٢٠٢٦ جميع المحتويات المنشورة محفوظة للمنصف.