زبدة القدرات ٢١

النسخة المحلولة

عدد الأسئلة: ٥٥

تحذير:

هذا المحتوى مخصص حصريا للمشتركين في الدورة ولا نحلل غيرهم

يمنع منعا باتا نسخ أو توزيع أو مشاركة هذا المحتوى بأي شكل من الأشكال

أي انتهاك لهذه الشروط سيعرض المخالف للحظر والمساءلة القانونية

نشكركم على احترام حقوق الملكية الفكرية

٢٠٢٦ جميع المحتويات المنشورة محفوظة للمنصف.

©2024 elmonsf.com جميع المحتويات المنشورة محفوظة لموقع
ALMONSEF EDUCATIONAL TECHNOLOGIES RESEARCH & DEVELOPMENT L.L.C

سؤال ١ باع شخص مزرعة بـ ٤٨٠٠٠٠ ريال بربح ٢٠٪ ، بكم اشتري المزرعة ؟

أ ٤٠٠٠٠٠ ب ٤٢٠٠٠٠ ج ٤٤٠٠٠٠ د ٤٦٠٠٠٠

الإجابة الصحيحة: أ

٢٠٢٦ جميع المحتويات المنشورة محفوظة للمنصف.

جميع المحتويات المنشورة محفوظة لموقع elmonsf.com ©2024
ALMONSEF EDUCATIONAL TECHNOLOGIES RESEARCH & DEVELOPMENT L.L.C

سؤال ٢ قارن بين :

- القيمة الأولى: ثلاثة أرباع ($١\frac{١}{٣}$) - القيمة الثانية: ثلثين ($١\frac{١}{٢}$)

أ القيمة الأولى أكبر

ب القيمة الثانية أكبر

ج القيمتان متساويتان

د المعطيات غير كافية

الإجابة الصحيحة: ج

جميع المحتويات المنشورة محفوظة لموقع elmonsf.com ©2024
ALMONSEF EDUCATIONAL TECHNOLOGIES RESEARCH & DEVELOPMENT L.L.C

سؤال ٣ إذا رمي حجرين نرد معًا، ما احتمال ظهور نفس الرقم في الوجه العلوي للحجرين؟

أ $\frac{١}{٣٦}$ ب $\frac{١}{١٢}$ ج $\frac{١}{٦}$ د $\frac{١}{٣}$

الإجابة الصحيحة: ج

٢٠٢٦ جميع المحتويات المنشورة محفوظة للمنصف.

جميع المحتويات المنشورة محفوظة لموقع elmonsf.com ©2024
ALMONSEF EDUCATIONAL TECHNOLOGIES RESEARCH & DEVELOPMENT L.L.C

سؤال ٤ عند القاء حجرين نرد ، قارن بين :

- القيمة الأولى: احتمال ظهور عددين متساويين
- القيمة الثانية: $\frac{١}{٣}$

أ القيمة الأولى أكبر
ب القيمة الثانية أكبر
ج القيمتان متساويتان
د المعطيات غيركافية

الإجابة الصحيحة: ب

٢٠٢٦ جميع المحتويات المنشورة محفوظة للمنصف.

جميع المحتويات المنشورة محفوظة لموقع elmonsf.com ©2024
ALMONSEF EDUCATIONAL TECHNOLOGIES RESEARCH & DEVELOPMENT L.L.C

سؤال ٥ إذا كان ع = ٢٠ ، فإن $\frac{ع^{٢} + ٢ع}{٤٠}$ تساوي:

أ ١١ ب ١٢ ج ٢٠ د ٢١

الإجابة الصحيحة: أ

٢٠٢٦ جميع المحتويات المنشورة محفوظة للمنصف.

جميع المحتويات المنشورة محفوظة لموقع elmonsf.com ©2024
ALMONSEF EDUCATIONAL TECHNOLOGIES RESEARCH & DEVELOPMENT L.L.C

سؤال ٦ يقف الطلاب في الطابور الصباحي في صفوف واعمدة ويقف أحمد الثالث من الامام و ١٨ من الخلف و على يساره ١٧ و على يمينه ١٢، كم عدد الطلاب الكلي

أ ٥٥١ ب ٥٧٠ ج ٥٨٠ د ٦٠٠

الإجابة الصحيحة: د

٢٠٢٦ جميع المحتويات المنشورة محفوظة للمنصف.

جميع المحتويات المنشورة محفوظة لموقع ©2024 elmonsf.com
ALMONSEF EDUCATIONAL TECHNOLOGIES RESEARCH & DEVELOPMENT L.L.C

سؤال ٧ إذا باع متجر للملابس سلعة بخصم الخُمس ويريد أن يعيدها لسعرها الأصلي، ما نسبة الزيادة في السعر؟

أ) $\frac{١}{٣}$ ب) $\frac{١}{٤}$ ج) $\frac{١}{٥}$ د) $\frac{١}{٦}$

الإجابة الصحيحة: ب

٢٠٢٦ جميع المحتويات المنشورة محفوظة للمنصف.

الإجابة الصحيحة: ب

٢٠٢٦ جميع المحتويات المنشورة محفوظة للمنصف.

٪ ١٠٠

جميع المحتويات المنشورة محفوظة لموقع elmonsf.com ©2024
ALMONSEF EDUCATIONAL TECHNOLOGIES RESEARCH & DEVELOPMENT L.L.C

سؤال ٩ قارن بين :

- القيمة الأولى: ١٢٠°
- القيمة الثانية: قياس زاوية السداسي المنتظم

أ القيمة الأولى أكبر

ب القيمة الثانية أكبر

ج القيمتان متساويتان

د المعطيات غيركافية

الإجابة الصحيحة: ج

٢٠٢٦ جميع المحتويات المنشورة محفوظة للمنصف.

صيغة مشابهة

جميع المحتويات المنشورة محفوظة لموقع elmonsf.com ©2024
ALMONSEF EDUCATIONAL TECHNOLOGIES RESEARCH & DEVELOPMENT L.L.C

سؤال ١٠ أعاد معلم تصحيح اسئلة اختبار بحيث يزيد ربع درجة للإجابة الصحيحة وينقص نصف درجة للإجابة الخاطئة ، فإذا كان عدد الإجابات الصحيحة سبع أمثال عدد الاجابات الخاطئة ، فإذا زادت درجات طالب ٣,٧٥ درجة ،فكم عدد اجاباته الخاطئة ؟

أ ١ ب ٢ ج ٣ د ٤

الإجابة الصحيحة: ج

٢٠٢٦ جميع المحتويات المنشورة محفوظة للمنصف.

جميع المحتويات المنشورة محفوظة لموقع elmonsf.com ©2024
ALMONSEF EDUCATIONAL TECHNOLOGIES RESEARCH & DEVELOPMENT L.L.C

سؤال ١١ الشكل المجاور مربع
احسب مساحة الجزء المظلل

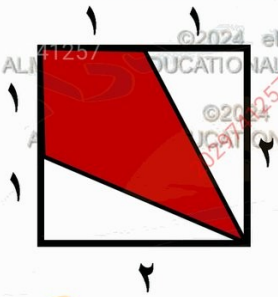

أ ١ ب ٢ ج ٣ د ٤

الإجابة الصحيحة: ب

٢٠٢٦ جميع المحتويات المنشورة محفوظة للمنصف.

جميع المحتويات المنشورة محفوظة لموقع elmonsf.com ©2024
ALMONSEF EDUCATIONAL TECHNOLOGIES RESEARCH & DEVELOPMENT L.L.C

سؤال ١٢ أوجد الحد الخامس في المتتابعة:

٣٢٤، ١٠٨، ٣٦، ١٢، .....

أ ٩ ب ٦ ج ٤ د ٣

الإجابة الصحيحة: ج

الإجابة الصحيحة: د

٢٠٢٦ جميع المحتويات المنشورة محفوظة للمنصف.

جميع المحتويات المنشورة محفوظة لموقع elmonsf.com ©2024
ALMONSEF EDUCATIONAL TECHNOLOGIES RESEARCH & DEVELOPMENT L.L.C

سؤال ١٤ قارن بين :

- القيمة الأولى: $\sqrt{٦\frac{١}{٤}}$
- القيمة الثانية: $٢\frac{١}{٢}$

أ القيمة الأولى أكبر

ب القيمة الثانية أكبر

ج القيمتان متساويتان

د المعطيات غير كافية

الإجابة الصحيحة: ج

٢٠٢٦ جميع المحتويات المنشورة محفوظة للمنصف.

جميع المحتويات المنشورة محفوظة لموقع ©2024 elmonsf.com
ALMONSEF EDUCATIONAL TECHNOLOGIES RESEARCH & DEVELOPMENT L.L.C

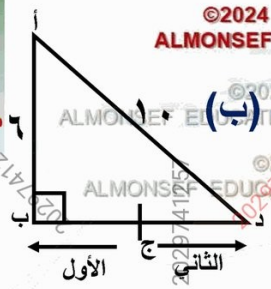

سؤال ١٥ إذا كان الأول يقطع مسافة من (ج) إلى (أ) مرورا بـ (ب) والثاني يقطع مسافة من (ج) إلى (أ) مرورا بـ (د) و (ج) تنصف $\overline{\text{دب}}$، فكم يجب أن يزيد الثاني من سرعته حتى يصل مع الأول في نفس الوقت ؟

أ ٨٠ ٪ ب ٧٠ ٪ ج ٤٠ ٪ د ٢٠ ٪

الإجابة الصحيحة: ج

الإجابة الصحيحة: ب

٢٠٢٦ جميع المحتويات المنشورة محفوظة للمنصف.

جميع المحتويات المنشورة محفوظة لموقع elmonsf.com ©2024
ALMONSEF EDUCATIONAL TECHNOLOGIES RESEARCH & DEVELOPMENT L.L.C

سؤال ١٧ مجموعة من الطلاب يمكن تقسيمهم ثلاثة ثلاثة أو خمسة خمسة أو ستة ستة، ما أقل عدد ممكن لعدد الطلاب؟

أ ٢٠ ب ٣٠ ج ٥٠ د ٦٠

الإجابة الصحيحة: ب

٢٠٢٦ جميع المحتويات المنشورة محفوظة للمنصف.

جميع المحتويات المنشورة محفوظة لموقع elmonsf.com ©2024
ALMONSEF EDUCATIONAL TECHNOLOGIES RESEARCH & DEVELOPMENT L.L.C

سؤال ١٨ اشترك احمد ومحمد في مسابقة ربح محمد ٦ ريال وربح احمد نصف ربح محمد ، ما مجموع ما ربحه محمد واحمد؟

أ ٣
ب ٦
ج ٩
د ١٢

الإجابة الصحيحة: ج

٢٠٢٦ جميع المحتويات المنشورة محفوظة للمنصف.

٪ ١٠٠

جميع المحتويات المنشورة محفوظة لموقع elmonsf.com ©2024
ALMONSEF EDUCATIONAL TECHNOLOGIES RESEARCH & DEVELOPMENT L.L.C

سؤال ١٩ إذا علمت أن مساحة الدائرة = ٤٠ط
ومساحة المثلث = ٣٠
أوجد مساحة الجزء المظلل ؟

أ ٣٠-٤٠ط
ب ٣٠-١٠ط
ج ١٠ط+٣٠
د ٤٠ط+٣٠

الإجابة الصحيحة: ب

٢٠٢٦ جميع المحتويات المنشورة محفوظة للمنصف.

جميع المحتويات المنشورة محفوظة لموقع elmonsf.com ©2024
ALMONSEF EDUCATIONAL TECHNOLOGIES RESEARCH & DEVELOPMENT L.L.C

سؤال ٢٠ إذا قطعت سيارة مسافة ٤٠كم ، فإن القطار يقطع ٥٠ كم في نفس الوقت ، فإذا قطعت السيارة ٦٠ كم ، فكم المسافة التي يقطعها القطار ؟

أ ٥٠ ب ٦٥ ج ٧٥ د ٩٠

الإجابة الصحيحة: ج

٢٠٢٦ جميع المحتويات المنشورة محفوظة للمنصف.

جميع المحتويات المنشورة محفوظة لموقع elmonsf.com ©2024
ALMONSEF EDUCATIONAL TECHNOLOGIES RESEARCH & DEVELOPMENT L.L.C

سؤال ٢١ إذا كان :

سعر فستان + ٥٠٠ ريال = ٥ أمثال سعره − ٦٠٠ ريال،

ما سعر الفستان ؟

أ ٢٢٥ ب ٢٥٠ ج ٢٧٥ د ٣٠٠

الإجابة الصحيحة: ج

٢٠٢٦ جميع المحتويات المنشورة محفوظة للمنصف.

جميع المحتويات المنشورة محفوظة لموقع elmonsf.com ©2024
ALMONSEF EDUCATIONAL TECHNOLOGIES RESEARCH & DEVELOPMENT L.L.C

سؤال ٢٢ ما نسبة درجة الرياضيات إلى مجموع الدرجات؟

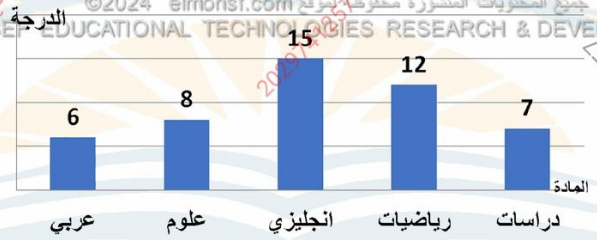

أ $\frac{١}{٢}$ ب $\frac{١}{٣}$ ج $\frac{١}{٤}$ د $\frac{١}{٥}$

الإجابة الصحيحة: ج

٢٠٢٦ جميع المحتويات المنشورة محفوظة للمنصف.

جميع المحتويات المنشورة محفوظة لموقع elmonsf.com ©2024
ALMONSEF EDUCATIONAL TECHNOLOGIES RESEARCH & DEVELOPMENT L.L.C

سؤال ٢٣ يسير شخص حول مضمار دائري طوله ٤٥٠ م بسرعة ٥ م/ث، كم الوقت الذي يقطع فيه دورة كاملة؟

أ ١٢٠ث
ب ٩٠ث
ج ٦٠ث
د ٣٠ث

الإجابة الصحيحة: ب

٢٠٢٦ جميع المحتويات المنشورة محفوظة للمنصف.

جميع المحتويات المنشورة محفوظة لموقع elmonsf.com ©2024
ALMONSEF EDUCATIONAL TECHNOLOGIES RESEARCH & DEVELOPMENT L.L.C

سؤال ٢٤ إذا كان الدوائر متطابقة ، محيط المستطيل = ٢٠ سم

ومساحته = ٢٤ سم٢

اوجد طول قطر الدائرة الواحدة

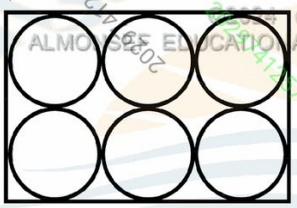

أ ١ ب ٢ ج ٣ د ٤

الإجابة الصحيحة: ب

٢٠٢٦ جميع المحتويات المنشورة محفوظة للمنصف.

جميع المحتويات المنشورة محفوظة لموقع elmonsf.com ©2024
ALMONSEF EDUCATIONAL TECHNOLOGIES RESEARCH & DEVELOPMENT L.L.C

سؤال ٢٥ يخطط احمد لإحاطة حديقة مستطيلة الشكل باستعمال سياج طوله $٤٥\frac{٣}{٤}$ م ، إذا كان عرض الحديقة $١٠\frac{١}{٢}$ م ، فما طولها؟

أ $١٢\frac{١}{٤}$ ب $١٢\frac{٣}{٨}$ ج $١٢\frac{١}{٢}$ د $١٢\frac{٣}{٤}$

الإجابة الصحيحة: ب

٢٠٢٦ جميع المحتويات المنشورة محفوظة للمنصف.

جميع المحتويات المنشورة محفوظة لموقع elmonsf.com ©2024
ALMONSEF EDUCATIONAL TECHNOLOGIES RESEARCH & DEVELOPMENT L.L.C

سؤال ٢٦ إذا كان س ⊠ ص = $\frac{٥ \text{ س} + \text{ص}}{٢ \text{ س ص}}$

، قارن بين :

- القيمة الأولى : ١ ⊠ ٢
- القيمة الثانية : ٢ ⊠ ١

أ القيمة الأولى أكبر
ب القيمة الثانية أكبر
ج القيمتان متساويتان
د المعطيات غير كافية

الإجابة الصحيحة: ب

٢٠٢٦ جميع المحتويات المنشورة محفوظة للمنصف.

جميع المحتويات المنشورة محفوظة لموقع elmonsf.com ©2024
ALMONSEF EDUCATIONAL TECHNOLOGIES RESEARCH & DEVELOPMENT L.L.C

سؤال ٢٧ إذا كان ٠ < س < ص < ع < م < و ، اعداد صحيحة متتالية ، قارن بين:

– القيمة الأولى: الوسيط لجميع الأعداد – القيمة الثانية: $\frac{س + و}{٢}$

أ القيمة الأولى أكبر

ب القيمة الثانية أكبر

ج القيمتان متساويتان

د المعطيات غير كافية

الإجابة الصحيحة: ب

٢٠٢٦ جميع المحتويات المنشورة محفوظة للمنصف.

أرقام مشابهة

جميع المحتويات المنشورة محفوظة لموقع elmonsf.com ©2024
ALMONSEF EDUCATIONAL TECHNOLOGIES RESEARCH & DEVELOPMENT L.L.C

سؤال ٢٨

ما عدد النساء في وجبة الإفطار من يوم الاثنين إلى الاربعاء؟

زوار المطعم خلال اسبوع

	رجال			نساء		
	الفطار	الغداء	العشاء	الفطار	الغداء	العشاء
السبت	١٠	١٢	٥	٨	٩	٧
الاحد	١٢	١٠	٧	٩	٨	٨
الاثنين	٩	٨	١٢	٢٠	٧	٧
الثلاثاء	٨	١٤	١٤	١٣	١٠	٧
الاربعاء	١٠	١٥	١٧	٤٠	١٠	٦
الخميس	١٢	١٣	١٨	١٧	١١	٥
الجمعة	١٤	١٦	١٩	١٨	١٤	١٠

أ ٦٦ ب ٧٣ ج ٨٣ د ٩٣

الإجابة الصحيحة: ب

٢٠٢٦ جميع المحتويات المنشورة محفوظة للمنصف.

©2024 elmonsf.com جميع المحتويات المنشورة محفوظة لموقع
ALMONSEF EDUCATIONAL TECHNOLOGIES RESEARCH & DEVELOPMENT L.L.C

سؤال ٢٩ أوجد قيمة س

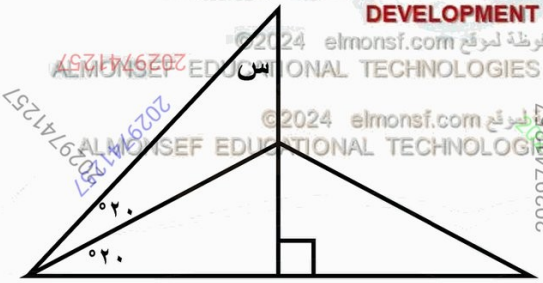

أ ٢٠ ب ٣٠ ج ٤٠ د ٥٠

الإجابة الصحيحة: د

٢٠٢٦ جميع المحتويات المنشورة محفوظة للمنصف.

صيغة مشابهة

جميع المحتويات المنشورة محفوظة لموقع elmonsf.com ©2024
ALMONSEF EDUCATIONAL TECHNOLOGIES RESEARCH & DEVELOPMENT L.L.C

سؤال ٣٠ الشكل التالي يمثل الكمية المضافة باللتر كل ساعة
ما المدة التي كان مقدار الزيادة فيها صفر (المعدل ثابت)

أ ١ - ٣
ب ٤ - ٦
ج ٧ - ٩
د ١٠ - ١٢

الإجابة الصحيحة: ب

٢٠٢٦ جميع المحتويات المنشورة محفوظة للمنصف.

©2024 elmonsf.com جميع المحتويات المنشورة محفوظة لموقع
ALMONSEF EDUCATIONAL TECHNOLOGIES RESEARCH & DEVELOPMENT L.L.C

سؤال ٣١ الشكل التالي يمثل الكمية المضافة باللتر كل ساعة في كم ساعة تم اضافة ٣٠٠ لتر؟

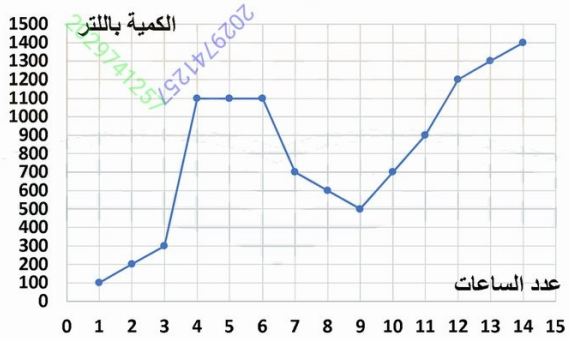

أ ١ ب ٢ ج ٣ د ٤

الإجابة الصحيحة: ج

٢٠٢٦ جميع المحتويات المنشورة محفوظة للمنصف.

جميع المحتويات المنشورة محفوظة لموقع elmonsf.com ©2024
ALMONSEF EDUCATIONAL TECHNOLOGIES RESEARCH & DEVELOPMENT L.L.C

سؤال ٣٢

ما متوسط أرباح الشركة بملايين الريالات في السنوات الثلاثة الأولي

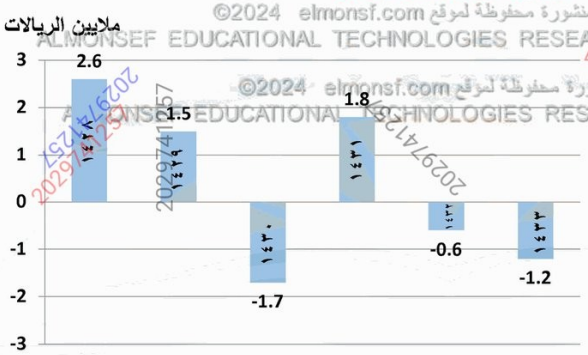

أ ٠,٨ ب -٠,٨ ج ٠,٤ د -٠,٤

الإجابة الصحيحة: أ

جميع المحتويات المنشورة محفوظة لموقع elmonsf.com ©2024
ALMONSEF EDUCATIONAL TECHNOLOGIES RESEARCH & DEVELOPMENT L.L.C

سؤال ٣٣ سلعة سعرها ٣٠٠ ريال تم بيعها بخصم ١٢٪، ما قيمة الخصم؟

أ ٣٠ ب ٣٦ ج ٤٠ د ٤٢

الإجابة الصحيحة: ب

٢٠٢٦ جميع المحتويات المنشورة محفوظة للمنصف.

جميع المحتويات المنشورة محفوظة لموقع elmonsf.com ©2024
ALMONSEF EDUCATIONAL TECHNOLOGIES RESEARCH & DEVELOPMENT L.L.C

سؤال ٣٤ إذا كان س ⊠ ص = $\frac{٥س + ص}{٥س ص}$ ، قارن بين :

- القيمة الأولى: ١ ⊠ ٢
- القيمة الثانية: ٢ ⊠ ١

أ القيمة الأولى أكبر
ب القيمة الثانية أكبر
ج القيمتان متساويتان
د المعطيات غير كافية

الإجابة الصحيحة: ب

٢٠٢٦ جميع المحتويات المنشورة محفوظة للمنصف.

جميع المحتويات المنشورة محفوظة لموقع elmonsf.com ©2024
ALMONSEF EDUCATIONAL TECHNOLOGIES RESEARCH & DEVELOPMENT L.L.C

سؤال ٣٥ أوجد الحد الخامس

١٢، ٣٠، ١٨، ٣٦، .....

أ ٢٠ ب ٢٤ ج ٤٢ د ٤٨

الإجابة الصحيحة: ب

جميع المحتويات المنشورة محفوظة لموقع elmonsf.com ©2024
ALMONSEF EDUCATIONAL TECHNOLOGIES RESEARCH & DEVELOPMENT L.L.C

سؤال ٣٦

إذا كان محيط متوازي الاضلاع = ٢٠سم
اوجد قيمة س



أ ٢ ب ٣ ج ٤ د ٦

الإجابة الصحيحة: ج

٢٠٢٦ جميع المحتويات المنشورة محفوظة للمنصف.

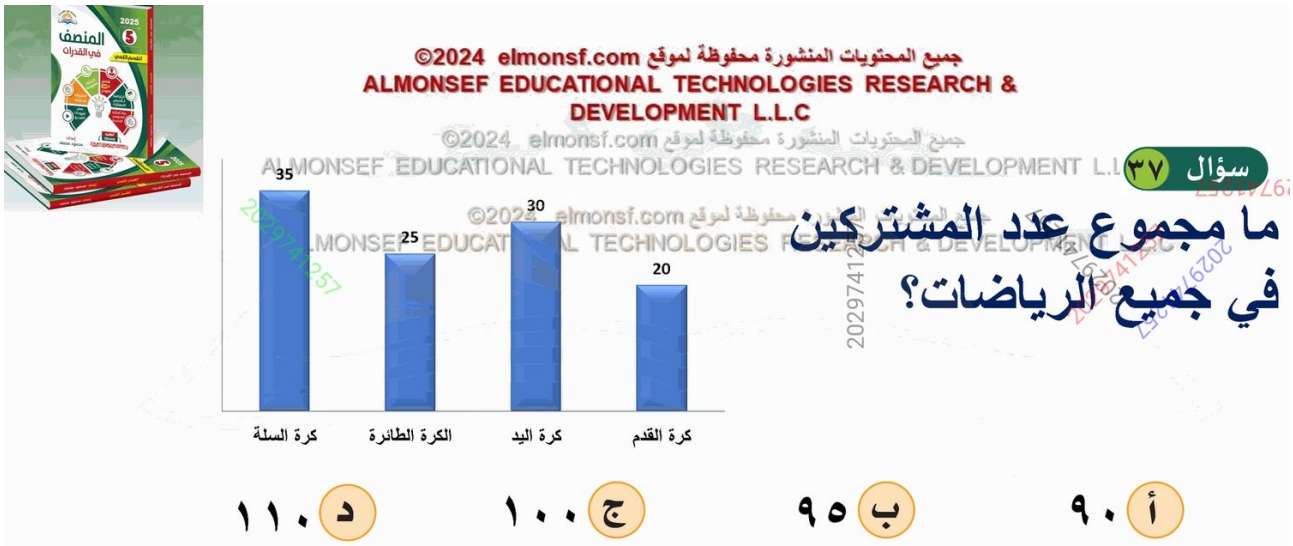

الإجابة الصحيحة: د

٢٠٢٦ جميع المحتويات المنشورة محفوظة للمنصف.

صيغة مشابهة

جميع المحتويات المنشورة محفوظة لموقع elmonsf.com ©2025
ALMONSEF EDUCATIONAL TECHNOLOGIES RESEARCH & DEVELOPMENT L.L.C

سؤال ٣٨

ما الشهر الذي فيه أكبر عدد من الرجال والنساء والأطفال؟

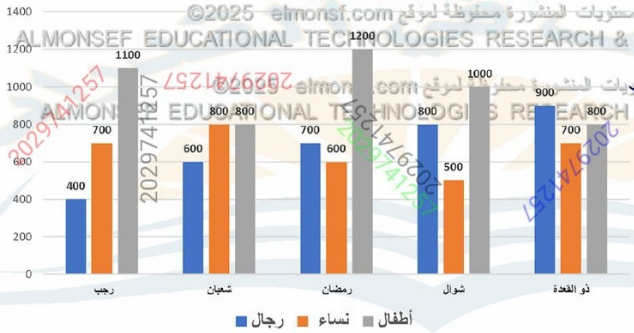

أ رجب
ب شعبان
ج رمضان
د شوال

الإجابة الصحيحة: ج

٢٠٢٦ جميع المحتويات المنشورة محفوظة للمنصف.

صيغة مشابهة

جميع المحتويات المنشورة محفوظة لموقع elmonsf.com ©2025
ALMONSEF EDUCATIONAL TECHNOLOGIES RESEARCH & DEVELOPMENT L.L.C

سؤال ٣٩ إذا كان عدد المراجعين بالمستشفى ٦٠ ونسبة الرجال $\frac{٢}{٥}$ ونسبة النساء $\frac{١}{٣}$ ونسبة الأطفال $\frac{٤}{١٥}$، ما أقل عدد من المراجعين من الرجال أو النساء أو الأطفال

أ ٢٤ ب ٢٠ ج ١٦ د ١٢

الإجابة الصحيحة: ج

٢٠٢٦ جميع المحتويات المنشورة محفوظة للمنصف.

جميع المحتويات المنشورة محفوظة لموقع elmonsf.com ©2025
ALMONSEF EDUCATIONAL TECHNOLOGIES RESEARCH & DEVELOPMENT L.L.C

سؤال ٤٠ إذا كان $\frac{٦}{٠,٢} = \frac{٠,٣}{س}$ أوجد قيمة س

أ $\frac{١}{١٠}$ ب $\frac{١}{١٠٠}$ ج ١٠ د ١٠٠

الإجابة الصحيحة: ب

جميع المحتويات المنشورة محفوظة لموقع elmonsf.com ©2025
ALMONSEF EDUCATIONAL TECHNOLOGIES RESEARCH & DEVELOPMENT L.L.C

سؤال ٤١ إذا كانت الصومال تمثل ٥٠ ٪ من الانتاج في الدول العربية ، كم النسبة التي تمثلها السودان؟

الدولة	عدد الابل بالملايين
الصومال	٧
السودان	٣,٥
الامارات	٠,٥
موريتانيا	١,٥

أ ٥ ٪
ب ١٥ ٪
ج ٢٠ ٪
د ٢٥ ٪

الإجابة الصحيحة: د

٢٠٢٦ جميع المحتويات المنشورة محفوظة للمنصف.

جميع المحتويات المنشورة محفوظة لموقع elmonsf.com ©2025
ALMONSEF EDUCATIONAL TECHNOLOGIES RESEARCH & DEVELOPMENT L.L.C

سؤال ٤٢

أوجد النسبة بين عدد الابل في الامارات مقارنة بموريتانيا

الدولة	عدد الابل بالملايين
الصومال	٧
السودان	٣,٥
الامارات	٠,٥
موريتانيا	١,٥

أ ١:٢
ب ٢:١
ج ١:٣
د ٣:١

الإجابة الصحيحة: ج

٢٠٢٦ جميع المحتويات المنشورة محفوظة للمنصف.

جميع المحتويات المنشورة محفوظة لموقع elmonsf.com ©2025
ALMONSEF EDUCATIONAL TECHNOLOGIES RESEARCH &
DEVELOPMENT L.L.C

سؤال ٤٣

إذا كان س + ص = ٢ ، س ص = ١
، اوجد قيمة $س^٢ + ص^٢$

أ ٠ ب ١ ج ٢ د ٣

الإجابة الصحيحة: ج

أرقام مشابهة

جميع المحتويات المنشورة محفوظة لموقع elmonsf.com ©2025
ALMONSEF EDUCATIONAL TECHNOLOGIES RESEARCH & DEVELOPMENT L.L.C

سؤال ٤٤ ما وسيط القيم: ٥,٧٩ ، $٥\frac{٤}{٥}$ ، $٥\frac{٧}{٨}$ ، $٥\frac{٣}{٤}$ ، ٥,٩

أ ٥,٧٩ ب $٥\frac{٤}{٥}$ ج $٥\frac{٧}{٨}$ د $٥\frac{٣}{٤}$

الإجابة الصحيحة: ب

٢٠٢٦ جميع المحتويات المنشورة محفوظة للمنصف.

جميع المحتويات المنشورة محفوظة لموقع elmonsf.com ©2024
ALMONSEF EDUCATIONAL TECHNOLOGIES RESEARCH & DEVELOPMENT L.L.C

سؤال ٤٥ كيس به ١٨ كرة زجاجية بعضها أصفر وبعضها أحمر تم اختيار كرة من الكيس عشوائيا ، ويدون لونها ثم تُعاد إلى الكيس . إذا تكررت التجربة ١٢٠ مرة ، وظهر اللون الأصفر ٨٠ مرة ، المطلوب المقارنة بين :

- القيمة الأولى: عدد الكرات الصفراء المحتمل وجودها في الكيس
- القيمة الثانية: ١٤

أ القيمة الأولى أكبر
ب القيمة الثانية أكبر
ج القيمتان متساويتان
د المعطيات غير كافية

الإجابة الصحيحة: ب

٢٠٢٦ جميع المحتويات المنشورة محفوظة للمنصف.

جميع المحتويات المنشورة محفوظة لموقع elmonsf.com ©2025
ALMONSEF EDUCATIONAL TECHNOLOGIES RESEARCH & DEVELOPMENT L.L.C

سؤال ٤٦ إذا كان س عدد صحيح ، س < الصفر

قارن بين :

- القيمة الأولى: $س^{٣}$
- القيمة الثانية: $-س^{٣}$

أ القيمة الأولى أكبر

ب القيمة الثانية أكبر

ج القيمتان متساويتان

د المعطيات غير كافية

الإجابة الصحيحة: ب

٢٠٢٦ جميع المحتويات المنشورة محفوظة للمنصف.

صيغة مشابهة

جميع المحتويات المنشورة محفوظة لموقع elmonsf.com ©2025
ALMONSEF EDUCATIONAL TECHNOLOGIES RESEARCH & DEVELOPMENT L.L.C

سؤال ٤٧ إذا كان النسبة الطبيعية لنسبة السكر في التمر من ٥٠٪ - ٦٩٪، ما النوع الذي نسبته مرتفعة عن النسبة الطبيعية

نوع التمر	نسبة السكر
بنبانه	٤٥٪
مكتومي	٧٠٪
صقعي	٥٠٪
خلاص	٦٨٪
دقل	٢٥٪

أ بنبانه
ب مكتومي
ج خلاص
د صقعي

الإجابة الصحيحة: ب

٢٠٢٦ جميع المحتويات المنشورة محفوظة للمنصف.

صيغة مشابهة

جميع المحتويات المنشورة محفوظة لموقع elmonsf.com ©2025
ALMONSEF EDUCATIONAL TECHNOLOGIES RESEARCH & DEVELOPMENT L.L.C

سؤال ٤٨ أي مما يلي يساوي نسبة السكر في حبة تمر مكتومي ؟

نوع التمر	نسبة السكر
بنبانة	٪٤٥
مكتومي	٪٧٠
صقعي	٪٥٠
خلاص	٪٦٨
دقل	٪٢٥

أ نصف حبة صقعي وحبة بنبانه
ب حبة صقعي ونصف حبة بنبانه
ج حبة خلاص ونصف حبة صقعي
د نصف حبة خلاص وحبة دقل

2029741257

الإجابة الصحيحة: أ

٢٠٢٦ جميع المحتويات المنشورة محفوظة للمنصف.

جميع المحتويات المنشورة محفوظة لموقع elmonsf.com ©2025
ALMONSEF EDUCATIONAL TECHNOLOGIES RESEARCH & DEVELOPMENT L.L.C

سؤال ٤٩ ما نسبة الزيادة من عام ٢٠٠٩ إلي ٢٠١١؟

أ $\frac{١}{٥}$ ب $\frac{١}{٤}$ ج $\frac{١}{٣}$ د $\frac{١}{٢}$

الإجابة الصحيحة: ب

٢٠٢٦ جميع المحتويات المنشورة محفوظة للمنصف.

جميع المحتويات المنشورة محفوظة لموقع elmonsf.com ©2025
ALMONSEF EDUCATIONAL TECHNOLOGIES RESEARCH & DEVELOPMENT L.L.C

سؤال ٥٠ في الشكل التالي، مربع طول ضلعه ٤ سم، ورؤوس المربع مراكز لدوائر متطابقة، كم سنتيمترا مربعا مساحة المنطقة المظللة؟



الرسم ليس على القياس

أ ١٦ط
ب ١٦+٤ط
ج ٤ط
د ١٦-٤ط

الإجابة الصحيحة: د

٢٠٢٦ جميع المحتويات المنشورة محفوظة للمنصف.

جميع المحتويات المنشورة محفوظة لموقع elmonsf.com ©2025
ALMONSEF EDUCATIONAL TECHNOLOGIES RESEARCH & DEVELOPMENT L.L.C

سؤال ٥١ قارن بين :

- القيمة الأولى: $٠,٢\sqrt{٧٥}$
- القيمة الثانية: $\sqrt{٣}$

أ القيمة الأولى أكبر

ب القيمة الثانية أكبر

ج القيمتان متساويتان

د المعطيات غير كافية

الإجابة الصحيحة: ج

٢٠٢٦ جميع المحتويات المنشورة محفوظة للمنصف.

جميع المحتويات المنشورة محفوظة لموقع elmonsf.com ©2025
ALMONSEF EDUCATIONAL TECHNOLOGIES RESEARCH & DEVELOPMENT L.L.C

سؤال ٥٢ أي مما يلي حاصل ضرب عددين متتاليين ؟

أ ٣٠
ب ٤٥
ج ٤٩
د ٦٠

الإجابة الصحيحة: أ

٢٠٢٦ جميع المحتويات المنشورة محفوظة للمنصف.

الإجابة الصحيحة: ب

٢٠٢٦ جميع المحتويات المنشورة محفوظة للمنصف.

جميع المحتويات المنشورة محفوظة لموقع elmonsf.com ©2025
ALMONSEF EDUCATIONAL TECHNOLOGIES RESEARCH & DEVELOPMENT L.L.C

سؤال ٥٤ قارن بين :

- القيمة الأولى: $\frac{١}{٢} \times \frac{١}{٦}$
- القيمة الثانية: $\frac{١}{٣} \times \frac{١}{٤}$

أ القيمة الأولى أكبر
ب القيمة الثانية أكبر
ج القيمتان متساويتان
د المعطيات غير كافية

الإجابة الصحيحة: ج

جميع المحتويات المنشورة محفوظة لموقع elmonsf.com ©2025
ALMONSEF EDUCATIONAL TECHNOLOGIES RESEARCH & DEVELOPMENT L.L.C

سؤال ٥٥ ما عدد المقلعين عن التدخين في شهر شوال؟

الشهر	الجلسات	المسجلين الجدد	المقلعين	نسبة المقلعين الى المسجلين
محرم	١٢٠	١١٠	٢٢٠	
صفر	١٤	١٢٠	١٢٥	
ربيع الأول	١٧٥	١٣٠	١٩٠	
ربيع الأخر	١٧٦	١٣٧	٧٥	
جمادي الأول	١٤٦	١٣٥	١٢٥	٪٧٠
جمادي الأخر	١٨٥	١٩٠	١٦٠	٪٦٩
رجب	١٧٧	١٣٥	٢٢٥	
شعبان	١٢٥	٩٥	٢٣٠	
رمضان	١١٠	١٤	٧٤	
شوال	١٠٠	٢٨٠	س	٪٦٩
ذو القعدة	١٧٠	١٤٠	٢٢٠	
ذو الحجة	١٨٠	١٥٠	٢٠٠	
المجموع	١٦٧٨	١٤٤٦	٢٢٤٨	

أ ٢٠٢
ب ٣٠٣
ج ٤٠٤
د ٥٠٥

الإجابة الصحيحة: ج

٢٠٢٦ جميع المحتويات المنشورة محفوظة للمنصف.