زبدة القدرات ١٥

النسخة المحلولة

عدد الأسئلة: ٥٥

تحذير:

هذا المحتوى مخصص حصريا للمشتركين في الدورة ولا نحلل غيرهم

يمنع منعا باتا نسخ أو توزيع أو مشاركة هذا المحتوى بأي شكل من الأشكال

أي انتهاك لهذه الشروط سيعرض المخالف للحظر والمساءلة القانونية

نشكركم على احترام حقوق الملكية الفكرية

٢٠٢٦ جميع المحتويات المنشورة محفوظة للمنصف.

جميع المحتويات المنشورة محفوظة لموقع elmonsf.com ©2024
ALMONSEF EDUCATIONAL TECHNOLOGIES RESEARCH & DEVELOPMENT L.L.C

سؤال ١ الشكل ادناه يعبر عن درجات الحرارة ، أي درجة حرارة تكررت ؟

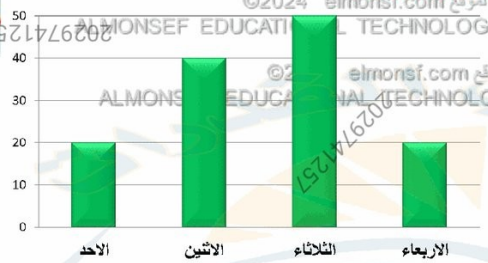

أ ٢٠ ب ٣٠ ج ٤٠ د ٥٠

الإجابة الصحيحة: أ

٪ ١٠٠

جميع المحتويات المنشورة محفوظة لموقع elmonsf.com ©2024
ALMONSEF EDUCATIONAL TECHNOLOGIES RESEARCH & DEVELOPMENT L.L.C

سؤال ٢ تسير سيارة من القرية (أ) إلى القرية (ب)، وقطعت نصف المسافة في ٤٠ دقيقة وباقي المسافة في ٢٠د، فإذا كانت المسافة الكلية = ١٦٠ كم ، أحسب السرعة المتوسطة للسيارة بـ (كلم/س)

أ ١٤٠ ب ١٠٠ ج ١٢٠ د ٩٠

الإجابة الصحيحة: ج

٢٠٢٦ جميع المحتويات المنشورة محفوظة للمنصف.

جميع المحتويات المنشورة محفوظة لموقع elmonsf.com ©2024
ALMONSEF EDUCATIONAL TECHNOLOGIES RESEARCH & DEVELOPMENT L.L.C

سؤال ٣ إذا كان س + ٨ > ٣ س - ١٢، أي الاتي صحيح؟

أ س > ١٠ ب س< ١٠ ج س>٢٠ د س< ٢٠

الإجابة الصحيحة: ب

سؤال انحراف معياري

جميع المحتويات المنشورة محفوظة لموقع elmonsf.com ©2024
ALMONSEF EDUCATIONAL TECHNOLOGIES RESEARCH & DEVELOPMENT L.L.C

سؤال ٤ هناك عرضان من شركتين

العرض الأول: تدفع مقدم ١٠٠٠ ريال وتقسيط ٣٠٠ ريال شهريًا

العرض الثاني : تدفع مقدم ١٦٠٠ ريال و تقسيط ٢٠٠ ريال شهريًا

،قارن بين:

- القيمة الأولى: العرض الأول
- القيمة الثانية: العرض الثاني

أ القيمة الأولى أكبر

ب القيمة الثانية أكبر

ج القيمتان متساويتان

د المعطيات غيركافية

الإجابة الصحيحة: د

٢٠٢٦ جميع المحتويات المنشورة محفوظة للمنصف.

جميع المحتويات المنشورة محفوظة لموقع elmonsf.com ©2024
ALMONSEF EDUCATIONAL TECHNOLOGIES RESEARCH & DEVELOPMENT L.L.C

سؤال ٥ إذا كان متوسط ١٢ عدد = ٢٠ ومتوسط العددين الأصغر والأكبر = ٣٠ ، ما متوسط بقية الاعداد؟

أ ١٢ ب ١٦ ج ١٨ د ٢٤

2029741257

الإجابة الصحيحة: ج

جميع المحتويات المنشورة محفوظة لموقع elmonsf.com ©2024
ALMONSEF EDUCATIONAL TECHNOLOGIES RESEARCH & DEVELOPMENT L.L.C

سؤال ٦ صرف سعيد ٢٠ ٪ من المبلغ الذي معه ، ثم صرف ٣٥٠٠ ريال ثم صرف ٥٠٠ ريال في عيادة الأسنان وتبقى معه ٢٠٠ ريال ، كم المبلغ الأصلي الذي كان معه ؟

أ ٥٠٠٠ ب ٥٢٠٠ ج ٥٢٥٠ د ٥٤٠٠

الإجابة الصحيحة: ج

٢٠٢٦ جميع المحتويات المنشورة محفوظة للمنصف.

جميع المحتويات المنشورة محفوظة لموقع elmonsf.com ©2024
ALMONSEF EDUCATIONAL TECHNOLOGIES RESEARCH & DEVELOPMENT L.L.C

سؤال ٧

إذا كان عدد الأشخاص الذين مؤهلهم الثانوية = ٢٧٠ شخص ، ما عدد الحاصلين على الماجستير

أ ٢٠٠ ب ٢٢٠ ج ٢٤٠ د ٢٨٠

الإجابة الصحيحة: ج

٢٠٢٦ جميع المحتويات المنشورة محفوظة للمنصف.

جميع المحتويات المنشورة محفوظة لموقع elmonsf.com ©2024
ALMONSEF EDUCATIONAL TECHNOLOGIES RESEARCH & DEVELOPMENT L.L.C

سؤال ٨ اذا كان س^{٢} + ص^{٢} = ٠ فإن س^{٢} − ص^{٢} = ...

أ -٢ ب -١ ج ١ د ٠

2029741257

الإجابة الصحيحة: د

جميع المحتويات المنشورة محفوظة لموقع elmonsf.com ©2024
ALMONSEF EDUCATIONAL TECHNOLOGIES RESEARCH & DEVELOPMENT L.L.C

سؤال ٩ اذا كان:

سعر فستان + ٥٠٠ ريال= ٥أمثال سعره - ٩٠٠ ريال

، ما سعر الفستان

أ ٢٥٠ ب ٣٠٠ ج ٣٥٠ د ٤٠٠

الإجابة الصحيحة: ج

٢٠٢٦ جميع المحتويات المنشورة محفوظة للمنصف.

©2024 elmonsf.com جميع المحتويات المنشورة محفوظة لموقع
ALMONSEF EDUCATIONAL TECHNOLOGIES RESEARCH & DEVELOPMENT L.L.C

سؤال ١٠ اذا كان: س + $\frac{٥}{٢}$ = $\frac{٤}{٥}$ + $\frac{٧}{١٠}$ ، اوجد قيمة س

أ -١ ب ١ ج -٢ د ٢

الإجابة الصحيحة: أ

٢٠٢٦ جميع المحتويات المنشورة محفوظة للمنصف.

صيغة مشابهة

©2024 elmonsf.com جميع المحتويات المنشورة محفوظة لموقع
ALMONSEF EDUCATIONAL TECHNOLOGIES RESEARCH & DEVELOPMENT L.L.C

سؤال ١١ مانسبة القطاع (٥)؟

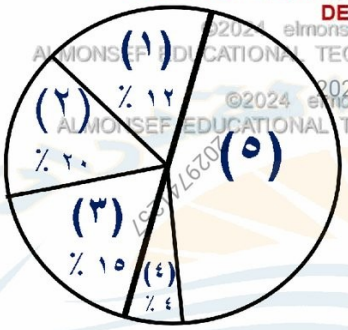

أ ٤٥ ب ٤٨ ج ٤٩ د ٥٠

الإجابة الصحيحة: ج

٢٠٢٦ جميع المحتويات المنشورة محفوظة للمنصف.

جميع المحتويات المنشورة محفوظة لموقع elmonsf.com ©2024
ALMONSEF EDUCATIONAL TECHNOLOGIES RESEARCH & DEVELOPMENT L.L.C

سؤال ١٢ قارن بين:

- القيمة الأولى: ١ ٤
- القيمة الثانية: $(٣+٤)^{٢} - (٢-٤)^{٣}$

أ القيمة الأولى أكبر
ب القيمة الثانية أكبر
ج القيمتان متساويتان
د المعطيات غير كافية

الإجابة الصحيحة: ب

٢٠٢٦ جميع المحتويات المنشورة محفوظة للمنصف.

جميع المحتويات المنشورة محفوظة لموقع elmonsf.com ©2024
ALMONSEF EDUCATIONAL TECHNOLOGIES RESEARCH & DEVELOPMENT L.L.C
2029741257

سؤال ١٣ قارن بين :

- القيمة الأولى: ٤ ١
- القيمة الثانية: $(٣+٤)^{٢} - (٤-٢)^{٣}$

أ القيمة الأولى أكبر
ب القيمة الثانية أكبر
ج القيمتان متساويتان
د المعطيات غير كافية

الإجابة الصحيحة: ج

جميع المحتويات المنشورة محفوظة لموقع elmonsf.com ©2024
ALMONSEF EDUCATIONAL TECHNOLOGIES RESEARCH & DEVELOPMENT L.L.C

سؤال ١٤ **قارن بين:**

- القيمة الأولى: $\frac{٣}{٥}$
- القيمة الثانية: $\frac{٣}{٥^{٢}}$

أ القيمة الأولى أكبر

ب القيمة الثانية أكبر

ج القيمتان متساويتان

د المعطيات غير كافية

2029741257

الإجابة الصحيحة: ب

جميع المحتويات المنشورة محفوظة لموقع elmonsf.com ©2024
ALMONSEF EDUCATIONAL TECHNOLOGIES RESEARCH & DEVELOPMENT L.L.C

سؤال ١٥ اذا كان $\frac{٧ \times ٤}{١٠٠} = ٧ \div$ س ، أوجد قيمة س

أ ٠,٠٤ ب ٢٥ ج ٤٠ د ٤٠٠

الإجابة الصحيحة: ب

٢٠٢٦ جميع المحتويات المنشورة محفوظة للمنصف.

جميع المحتويات المنشورة محفوظة لموقع elmonsf.com ©2024
ALMONSEF EDUCATIONAL TECHNOLOGIES RESEARCH & DEVELOPMENT L.L.C

سؤال ١٦ قارن بين:

- القيمة الأولى: نصف مساحة المربع أ ب ج د
- القيمة الثانية: مساحة مربع طول ضلعه = $\frac{١}{٢}$ طول ضلع المربع أ ب ج د

أ القيمة الأولى أكبر
ب القيمة الثانية أكبر
ج القيمتان متساويتان
د المعطيات غير كافية

الإجابة الصحيحة: أ

جميع المحتويات المنشورة محفوظة لموقع elmonsf.com ©2024
ALMONSEF EDUCATIONAL TECHNOLOGIES RESEARCH & DEVELOPMENT L.L.C

سؤال ١٧ إذا كان محمد أكبر من وليد، وليد أصغر من عمر

قارن بين

- القيمة الأولى: محمد
- القيمة الثانية: عمر

أ القيمة الأولى أكبر

ب القيمة الثانية أكبر

ج القيمتان متساويتان

د المعطيات غير كافية

الإجابة الصحيحة: د

٢٠٢٦ جميع المحتويات المنشورة محفوظة للمنصف.

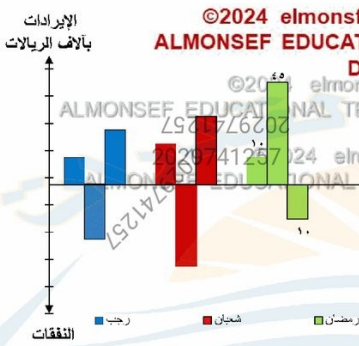

جميع المحتويات المنشورة محفوظة لموقع elmonsf.com ©2024
ALMONSEF EDUCATIONAL TECHNOLOGIES RESEARCH & DEVELOPMENT L.L.C

سؤال ١٨ ما الربح بالآلاف في شهر رمضان تقريبًا ؟

أ ٢٢ ب ٣٠ ج ٤٤ د ٥٥

الإجابة الصحيحة: ج

جميع المحتويات المنشورة محفوظة لموقع elmonsf.com ©2024
ALMONSEF EDUCATIONAL TECHNOLOGIES RESEARCH & DEVELOPMENT L.L.C

سؤال ١٩ ما قيمة $\sqrt{\frac{٦٠٥,٩٠ \times ٥,٧٩}{١٥,٨٥}}$ لأقرب عدد صحيح

أ ١٢ ب ١٣ ج ١٤ د ١٥

الإجابة الصحيحة: د

جميع المحتويات المنشورة محفوظة لموقع elmonsf.com ©2024
ALMONSEF EDUCATIONAL TECHNOLOGIES RESEARCH & DEVELOPMENT L.L.C

سؤال ٢٠ تسير سيارة نصف المسافة من القرية (أ) إلى القرية (ب) بسرعة ثابتة خلال ٤٠ دقيقة وقطعت نصف المتبقي في ٢٠ د، فإذا كانت المسافة الكلية = ١٦٠ كم ، أحسب سرعة السيارة بـ (كلم/س)

أ ١٤٠ ب ١٠٠ ج ١٢٠ د ٩٠

الإجابة الصحيحة: ج

٢٠٢٦ جميع المحتويات المنشورة محفوظة للمنصف.

جميع المحتويات المنشورة محفوظة لموقع elmonsf.com ©2024
ALMONSEF EDUCATIONAL TECHNOLOGIES RESEARCH & DEVELOPMENT L.L.C

سؤال ٢١ أوجد الحد التالي في المتتابعة

١ ، ٢ ، ٢,٥ ، ٣ ، ٤ ، ٤ ، .....

أ ٥ ب ٥,٥ ج ٦ د ٦,٥

الإجابة الصحيحة: ب

٢٠٢٦ جميع المحتويات المنشورة محفوظة للمنصف.

سؤال ٢٢ في فصل حضر كل الطلاب ماعدا ١١ طالب وغاب كل الطلاب ما عدا ٢٣ ، طالب ،كم عدد طلاب الفصل؟

أ ٣٢
ب ٣٣
ج ٣٤
د ٣٥

2029741257

الإجابة الصحيحة: ج

٢٠٢٦ جميع المحتويات المنشورة محفوظة للمنصف.

جميع المحتويات المنشورة محفوظة لموقع elmonsf.com ©2024
ALMONSEF EDUCATIONAL TECHNOLOGIES RESEARCH & DEVELOPMENT L.L.C

سؤال ٢٣ ما أقل محصول؟

أ قمح
ب مانجو
ج عنب
د فراولة

الإجابة الصحيحة: ج

٢٠٢٦ جميع المحتويات المنشورة محفوظة للمنصف.

جميع المحتويات المنشورة محفوظة لموقع elmonsf.com ©2024
ALMONSEF EDUCATIONAL TECHNOLOGIES RESEARCH & DEVELOPMENT L.L.C

سؤال ٢٤ أوجد نصف الحد الخامس للمتتابعة:

١١ ، ٢٢ ، ٤٤ ، ٨٨ ، .....

أ ٤٤ ب ٨٨ ج ١٧٦ د ٣٥٢

الإجابة الصحيحة: ب

جميع المحتويات المنشورة محفوظة لموقع elmonsf.com ©2024
ALMONSEF EDUCATIONAL TECHNOLOGIES RESEARCH & DEVELOPMENT L.L.C

سؤال ٢٥ أوجد مساحة المربع



أ ١٦ ب ٣٢ ج ٤٨ د ٦٤

الإجابة الصحيحة: د

٢٠٢٦ جميع المحتويات المنشورة محفوظة للمنصف.

جميع المحتويات المنشورة محفوظة لموقع elmonsf.com ©2024
ALMONSEF EDUCATIONAL TECHNOLOGIES RESEARCH & DEVELOPMENT L.L.C

سؤال ٢٦ إذا كان مساحة شبه المنحرف = ١٣ سم^{٢}



،أوجد قيمة س

أ) $\frac{١}{٤}$ ب) $\frac{١}{٢}$ ج) ١ د) ٢

2029741257

الإجابة الصحيحة: ج

جميع المحتويات المنشورة محفوظة لموقع elmonsf.com ©2024
ALMONSEF EDUCATIONAL TECHNOLOGIES RESEARCH & DEVELOPMENT L.L.C

سؤال ٢٧ هناك نقطتان أ،ج، قطع خالد نصف المسافة بين أ،ج في ١دقيقة وقطع ثلثي المتبقي في ٢ دقيقه وتبقى له ٤٠ متر، ما المسافة بين النقطتين أ،ج؟

أ ٢٤٠ ب ٢٠٠ ج ١٦٠ د ٨٠

الإجابة الصحيحة: أ

٢٠٢٦ جميع المحتويات المنشورة محفوظة للمنصف.

جميع المحتويات المنشورة محفوظة لموقع elmonsf.com ©2024
ALMONSEF EDUCATIONAL TECHNOLOGIES RESEARCH & DEVELOPMENT L.L.C

سؤال ٢٨ إذا كان ٢س = ٣، أوجد قيمة ٨س

أ ٨١ ب ٢٧ ج ١٦ د ٨

الإجابة الصحيحة: ب

٢٠٢٦ جميع المحتويات المنشورة محفوظة للمنصف.

©2024 elmonsf.com جميع المحتويات المنشورة محفوظة لموقع
ALMONSEF EDUCATIONAL TECHNOLOGIES RESEARCH & DEVELOPMENT L.L.C

سؤال ٢٩ سلمى لديها أختان ، الأولى أكبر منها بـ ٨ سنوات والأخرى أصغر منها بسنتين ، فإذا كان حاصل ضرب عمري الأختين = ٥٦، ما عمر سلمي؟

أ ٦ ب ٨ ج ١٠ د ١٢

الإجابة الصحيحة: أ

٢٠٢٦ جميع المحتويات المنشورة محفوظة للمنصف.

سؤال ٣٠ اذا كان س = ٣ ، فأي العبارات الآتية لها قيمة مختلفة؟

أ) ٤س^{٢} - ٤

ب) ١٠ س + ٢

ج) ٧ س + ١١

د) س^{٢} × ٢

2029741257

الإجابة الصحيحة: د

٢٠٢٦ جميع المحتويات المنشورة محفوظة للمنصف.

جميع المحتويات المنشورة محفوظة لموقع elmonsf.com ©2024
ALMONSEF EDUCATIONAL TECHNOLOGIES RESEARCH & DEVELOPMENT L.L.C

سؤال ٣١ ما قياس زاوية س؟

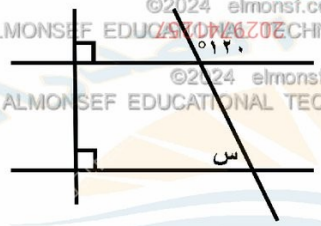

أ ١٢٠ ب ٩٠ ج ٦٠ د ٣٠

الإجابة الصحيحة: ج

صيغة مشابهة

جميع المحتويات المنشورة محفوظة لموقع elmonsf.com ©2024
ALMONSEF EDUCATIONAL TECHNOLOGIES RESEARCH & DEVELOPMENT L.L.C

سؤال ٣٢ سلك محمد طريقه إلى المسجد فيصل في ربع ساعة وبعد انطلاق محمد بـ ٥ دقائق انطلق إبراهيم في طريقه إلى المسجد فيصل في ٩ دقائق، كم دقيقة يسبق ابراهيم محمد في الوصول إلى المسجد؟

أ ١ ب ٨ ج ٩ د ١٠

الإجابة الصحيحة: أ

٢٠٢٦ جميع المحتويات المنشورة محفوظة للمنصف.

©2024 elmonsf.com جميع المحتويات المنشورة محفوظة لموقع
ALMONSEF EDUCATIONAL TECHNOLOGIES RESEARCH & DEVELOPMENT L.L.C

سؤال ٣٣ ما نسبة مساحة المثلث المظلل إلى مساحة المستطيل

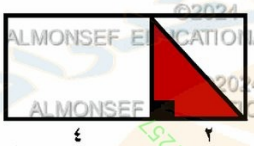

أ $\frac{١}{١٢}$

ب $\frac{١}{٦}$

ج $\frac{١}{٤}$

د $\frac{١}{٣}$

الإجابة الصحيحة: ب

٢٠٢٦ جميع المحتويات المنشورة محفوظة للمنصف.

جميع المحتويات المنشورة محفوظة لموقع elmonsf.com ©2024
ALMONSEF EDUCATIONAL TECHNOLOGIES RESEARCH & DEVELOPMENT L.L.C

سؤال ٣٤ احسب قيمة: $\sqrt{٢٧}$

أ $\sqrt{٣}$ ب ٣ ج ٣ $\sqrt{٣}$ د ٩

الإجابة الصحيحة: أ

٢٠٢٦ جميع المحتويات المنشورة محفوظة للمنصف.

جميع المحتويات المنشورة محفوظة لموقع elmonsf.com ©2024
ALMONSEF EDUCATIONAL TECHNOLOGIES RESEARCH & DEVELOPMENT L.L.C

سؤال ٣٥

ما الدولة التي بها أعلى قروض استهلاكية

الدولة	القروض الاستهلاكية	القروض العقارية
السعودية	٢٧٦	٨٦
الامارات	٢٥٠	١٨٥
قطر	٢٧٢	٢٥٦
البحرين	٢٤٢	١٧٥

أ السعودية
ب قطر
ج الامارات
د البحرين

الإجابة الصحيحة: أ

٢٠٢٦ جميع المحتويات المنشورة محفوظة للمنصف.

جميع المحتويات المنشورة محفوظة لموقع elmonsf.com ©2024
ALMONSEF EDUCATIONAL TECHNOLOGIES RESEARCH & DEVELOPMENT L.L.C

سؤال ٣٦ في الشكل المجاور



ربع دائرة وداخلها مستطيل طول قطره = ٤سم،أوجد مساحة الربع دائرة

أ ٢ط ب ٤ط ج ٨ط د ١٦ط

2029741257

الإجابة الصحيحة: ب

جميع المحتويات المنشورة محفوظة لموقع elmonsf.com ©2024
ALMONSEF EDUCATIONAL TECHNOLOGIES RESEARCH & DEVELOPMENT L.L.C

سؤال ٣٧ أحسب مساحة المثلث المظلل

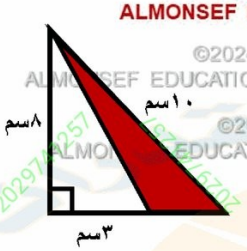

أ ٣ ب ٦ ج ١٢ د ٢٤

الإجابة الصحيحة: ج

٢٠٢٦ جميع المحتويات المنشورة محفوظة للمنصف.

الإجابة الصحيحة: ج

٢٠٢٦ جميع المحتويات المنشورة محفوظة للمنصف.

جميع المحتويات المنشورة محفوظة لموقع elmonsf.com ©2024
ALMONSEF EDUCATIONAL TECHNOLOGIES RESEARCH & DEVELOPMENT L.L.C

سؤال ٣٩ إذا كان رُبع عدد = ٦٠٠٠ ،كم يساوي نصف ثلث هذا العدد؟

أ ٢٠٠٠ ب ٣٠٠٠ ج ٤٠٠٠ د ٥٠٠٠

الإجابة الصحيحة: ج

جميع المحتويات المنشورة محفوظة لموقع elmonsf.com ©2024
ALMONSEF EDUCATIONAL TECHNOLOGIES RESEARCH & DEVELOPMENT L.L.C

سؤال ٤٠ شخص معه ٩٢ ورقة من فئة ١٠٠ و ٢٠٠ و ٥٠٠ ريال ونسبة عدد الأوراق ١١ : ٣ : ٩ على الترتيب، كم المبلغ الذي معه من فئة ٥٠٠ ريال؟

أ ٣٥٠٠ ب ٦٠٠٠ ج ١٨٠٠٠ د ٢٢٠٠٠

الإجابة الصحيحة: ج

٢٠٢٦ جميع المحتويات المنشورة محفوظة للمنصف.

جميع المحتويات المنشورة محفوظة لموقع elmonsf.com ©2024
ALMONSEF EDUCATIONAL TECHNOLOGIES RESEARCH & DEVELOPMENT L.L.C

سؤال ٤١ احسب قيمة: $\sqrt[3]{١٠٠٠٠٠} - ١ - \sqrt[3]{٠٠٠٠٠٠}$

أ صفر ب ١ ج ٢ د ٣

الإجابة الصحيحة: أ

٢٠٢٦ جميع المحتويات المنشورة محفوظة للمنصف.

سؤال ٤٢

من الارقام (١ ، ٣، ٧، ٤) يمكن تكوين عدد اكبر من ١٠٠٠ بدون تكرار ، وتم ترتيبهم تصاعديًا ، ما الفرق بين العددين جانبي العدد ١٤٣٧؟

أ ٩٠ ب ٩٩ ج ٢٦١ د ٣٦٥

الإجابة الصحيحة: ب

٢٠٢٦ جميع المحتويات المنشورة محفوظة للمنصف.

©2024 elmonsf.com جميع المحتويات المنشورة محفوظة لموقع
ALMONSEF EDUCATIONAL TECHNOLOGIES RESEARCH & DEVELOPMENT L.L.C

سؤال ٤٣ الشكل المجاور:

مربعين طول ضلع أحدهما يساوي طول قطر الآخر ،أحسب مساحة الجزء المظلل



أ ٢٤ ب ٣٦ ج ٤٨ د ٦٤

الإجابة الصحيحة: أ

٢٠٢٦ جميع المحتويات المنشورة محفوظة للمنصف.

جميع المحتويات المنشورة محفوظة لموقع elmonsf.com ©2024
ALMONSEF EDUCATIONAL TECHNOLOGIES RESEARCH & DEVELOPMENT L.L.C

سؤال ٤٤

إذا كان △ أ ب ج متطابق الاضلاع،
احسب محيط المعين

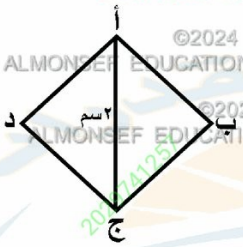

أ ٤ ب ٦ ج ٨ د ١٠

الإجابة الصحيحة: ج

٢٠٢٦ جميع المحتويات المنشورة محفوظة للمنصف.

جميع المحتويات المنشورة محفوظة لموقع elmonsf.com ©2024
ALMONSEF EDUCATIONAL TECHNOLOGIES RESEARCH & DEVELOPMENT L.L.C

سؤال ٤٥

الشكل المجاور مربع ، اوجد قيمة س

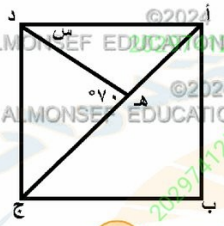

أ ٢٥ ب ٣٠ ج ٣٥ د ٤٠

2029741257

الإجابة الصحيحة: أ

٢٠٢٦ جميع المحتويات المنشورة محفوظة للمنصف.

جميع المحتويات المنشورة محفوظة لموقع elmonsf.com ©2024
ALMONSEF EDUCATIONAL TECHNOLOGIES RESEARCH & DEVELOPMENT L.L.C

سؤال ٤٦ أوجد قيمة س

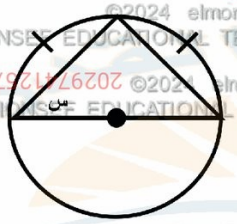

أ ٣٠ ب ٤٥ ج ٦٠ د ٧٥

الإجابة الصحيحة: ب

٢٠٢٦ جميع المحتويات المنشورة محفوظة للمنصف.

جميع المحتويات المنشورة محفوظة لموقع elmonsf.com ©2024
ALMONSEF EDUCATIONAL TECHNOLOGIES RESEARCH & DEVELOPMENT L.L.C

سؤال ٤٧ قارن بين:

- القيمة الأولى: $٤^{٣}$ـ$٣^{٤}$
- القيمة الثانية: $٢^{١}$ـ$١^{٢}$

أ القيمة الأولى أكبر
ب القيمة الثانية أكبر
ج القيمتان متساويتان
د المعطيات غير كافية

الإجابة الصحيحة: ب

٢٠٢٦ جميع المحتويات المنشورة محفوظة للمنصف.

جميع المحتويات المنشورة محفوظة لموقع elmonsf.com ©2024
ALMONSEF EDUCATIONAL TECHNOLOGIES RESEARCH & DEVELOPMENT L.L.C

سؤال ٤٨ إذا كان $\frac{٣}{٤}$ × س = ٣ أوجد قيمة س

أ ١ ب ١,٥ ج ٢ د ٣

الإجابة الصحيحة: ب

جميع المحتويات المنشورة محفوظة لموقع elmonsf.com ©2024
ALMONSEF EDUCATIONAL TECHNOLOGIES RESEARCH & DEVELOPMENT L.L.C

سؤال ٤٩ خمسة أعداد طبيعية أصغرهم = ٢ والمنوال = ٧ ، والوسيط = ٥ ، أوجد متوسطهم

أ ٥ ب ٦ ج ٧ د ٨

20297412257

الإجابة الصحيحة: أ

جميع المحتويات المنشورة محفوظة لموقع elmonsf.com ©2024
ALMONSEF EDUCATIONAL TECHNOLOGIES RESEARCH & DEVELOPMENT L.L.C

سؤال ٥٠

احسب قيمة : $(\sqrt{١٢} + \sqrt{٣} - \sqrt{٢٧})^{٢}$

أ ٠ ب ١٠٨ ج -١٥ د $٣\sqrt{٦}$

2029741257

الإجابة الصحيحة: أ

جميع المحتويات المنشورة محفوظة لموقع elmonsf.com ©2024
ALMONSEF EDUCATIONAL TECHNOLOGIES RESEARCH & DEVELOPMENT L.L.C

سؤال ٥١ أحسب قيمة: $\frac{٢٩ + ٣٩}{٣ \times ٤}$

أ ٣ ب ٩ ج ١٠ د ٢٧

الإجابة الصحيحة: ج

٢٠٢٦ جميع المحتويات المنشورة محفوظة للمنصف.

جميع المحتويات المنشورة محفوظة لموقع elmonsf.com ©2024
ALMONSEF EDUCATIONAL TECHNOLOGIES RESEARCH & DEVELOPMENT L.L.C

سؤال ٥٢

الأرقام (١، ٢، ٣، ٤، ٥، ٦، ٧، ٨، ٩)
إذا أُختير عدد عشوائيا، ما احتمال أن يقبل القسمة على ٣؟

أ $\frac{١}{٤}$ ب $\frac{١}{٢}$ ج $\frac{١}{٣}$ د $\frac{١}{٥}$

الإجابة الصحيحة: ج

٢٠٢٦ جميع المحتويات المنشورة محفوظة للمنصف.

جميع المحتويات المنشورة محفوظة لموقع elmonsf.com ©2024
ALMONSEF EDUCATIONAL TECHNOLOGIES RESEARCH & DEVELOPMENT L.L.C

سؤال ٥٣ ما مجموع أول ثلاث حدود في المتابعة التي حدها النوني أن = $(\frac{١}{٢})^{ن}$ ، ن > صفر

أ) $\frac{٣}{٤}$ ب) $\frac{٧}{٨}$ ج) $\frac{٥}{٨}$ د) $\frac{٩}{٤}$

الإجابة الصحيحة: ب

٢٠٢٦ جميع المحتويات المنشورة محفوظة للمنصف.

جميع المحتويات المنشورة محفوظة لموقع elmonsf.com ©2024
ALMONSEF EDUCATIONAL TECHNOLOGIES RESEARCH & DEVELOPMENT L.L.C

سؤال ٥٤ إذا كان ٢٠ ٪ من ربع (س+١) = ٢

قارن بين:

- القيمة الأولى: س
- القيمة الثانية: ١٤

أ القيمة الأولى أكبر

ب القيمة الثانية أكبر

ج القيمتان متساويتان

د المعطيات غير كافية

2029741257

الإجابة الصحيحة: أ

٢٠٢٦ جميع المحتويات المنشورة محفوظة للمنصف.

جميع المحتويات المنشورة محفوظة لموقع elmonsf.com ©2024
ALMONSEF EDUCATIONAL TECHNOLOGIES RESEARCH & DEVELOPMENT L.L.C

سؤال ٥٥

إذا كان تكلفة طلاء المتر المربع = ١٠ ريال
كم تكلفة طلاء الباب؟

أ ٣٠ ب ٣٢ ج ٣٣ د ٣٦

الإجابة الصحيحة: ج

٢٠٢٦ جميع المحتويات المنشورة محفوظة للمنصف.