زبدة القدرات ١٤

النسخة المحلولة

عدد الأسئلة: ٥٥

تحذير:

هذا المحتوى مخصص حصريا للمشتركين في الدورة ولا نحلل غيرهم

يمنع منعا باتا نسخ أو توزيع أو مشاركة هذا المحتوى بأي شكل من الأشكال

أي انتهاك لهذه الشروط سيعرض المخالف للحظر والمساءلة القانونية

نشكركم على احترام حقوق الملكية الفكرية

٢٠٢٦ جميع المحتويات المنشورة محفوظة للمنصف.

جميع المحتويات المنشورة محفوظة لموقع elmonsf.com ©2023
ALMONSEF EDUCATIONAL TECHNOLOGIES RESEARCH & DEVELOPMENT L.L.C

سؤال ١ إذا كان س - ٧ > ٨ ، أي الآتي صحيح؟

أ س > ١٥ ب س < ١٥ ج س < ١ د س < -١

الإجابة الصحيحة: أ

جميع المحتويات المنشورة محفوظة لموقع elmonsf.com ©2023
ALMONSEF EDUCATIONAL TECHNOLOGIES RESEARCH & DEVELOPMENT L.L.C

سؤال ٢ أحسب قيمة $\frac{١}{٢} + \frac{١}{٣} + \frac{١}{٤} - \frac{١}{١٢}$

أ ٠

ب $\frac{٥}{١٢}$

ج $\frac{٧}{١٢}$

د ١

الإجابة الصحيحة: د

٢٠٢٦ جميع المحتويات المنشورة محفوظة للمنصف.

جميع المحتويات المنشورة محفوظة لموقع elmonsf.com ©2023
ALMONSEF EDUCATIONAL TECHNOLOGIES RESEARCH & DEVELOPMENT L.L.C

سؤال ٣ إذا كان مقياس الرسم على خريطة ١سم : ١٢م

إذا كان طول طريق $\frac{١}{٤}$١٧سم في الخريطة ،

كم طوله في الحقيقة؟

أ ٢١٠ ب ٢٠٩ ج ٢٠٧ د ٢٠٦

الإجابة الصحيحة: ج

٢٠٢٦ جميع المحتويات المنشورة محفوظة للمنصف.

جميع المحتويات المنشورة محفوظة لموقع elmonsf.com ©2023
ALMONSEF EDUCATIONAL TECHNOLOGIES RESEARCH & DEVELOPMENT L.L.C

سؤال ٤

سأل يوسف صديقه إبراهيم : كم نصيبك في أسهم شركتنا ، فأجابه إبراهيم:
"نصيبي يقبل القسمة على ٩، ١١، ١٣ بدون باق"
، ما نصيب يوسف؟ إذا كان مجموع أسهم الشركة ٢٠٠٠

أ ١٢٨٧ ب ٧١٣ ج ١٥٢١ د ١٤٥٧

الإجابة الصحيحة: ب

سؤال ٥ طابور فيه ٣٠ طالب ، وأمام أحمد ١٠ طلاب وخلف خالد ١٠ طلاب ، ما عدد الطلاب الواقفين بين أحمد وخالد؟

أ ١٢ ب ١٠ ج ٨ د ٦

الإجابة الصحيحة: ج

٢٠٢٦ جميع المحتويات المنشورة محفوظة للمنصف.

صيغة مشابهة

جميع المحتويات المنشورة محفوظة لموقع elmonsf.com ©2023
ALMONSEF EDUCATIONAL TECHNOLOGIES RESEARCH & DEVELOPMENT L.L.C

سؤال ٦ شخص لديه قطعة أرض مساحتها ٤٤٥٢ م٢ أخذ نصف الأرض أقام عليها مزرعة وقسم الباقي إلى ثلاث أقسام متساوية ، قارن بين:

- القيمة الأولى: مساحة القسم الواحد
- القيمة الثانية: سدس مساحة الأرض

أ القيمة الأولى أكبر
ب القيمة الثانية أكبر
ج القيمتان متساويتان
د المعطيات غير كافية

الإجابة الصحيحة: ج

٢٠٢٦ جميع المحتويات المنشورة محفوظة للمنصف.

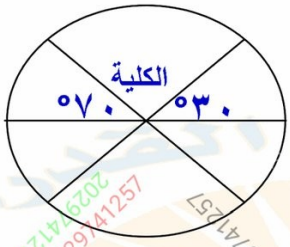

سؤال ٧

إذا كان عدد الطلاب ١٨٠ طالب كم عدد طلاب الكلية

أ ٢٠ ب ٣٠ ج ٤٠ د ٦٠

الإجابة الصحيحة: ج

٢٠٢٦ جميع المحتويات المنشورة محفوظة للمنصف.

جميع المحتويات المنشورة محفوظة لموقع elmonsf.com ©2023
ALMONSEF EDUCATIONAL TECHNOLOGIES RESEARCH & DEVELOPMENT L.L.C

سؤال ٨ **قارن بين :**

- القيمة الأولى: $\frac{٧ ط}{٢٤}$
- القيمة الثانية: $\left(\frac{٢٤}{٧ ط}\right)^{-١}$

أ القيمة الأولى أكبر

ب القيمة الثانية أكبر

ج القيمتان متساويتان

د المعطيات غير كافية

الإجابة الصحيحة: ج

٢٠٢٦ جميع المحتويات المنشورة محفوظة للمنصف.

جميع المحتويات المنشورة محفوظة لموقع elmonsf.com ©2023
ALMONSEF EDUCATIONAL TECHNOLOGIES RESEARCH & DEVELOPMENT L.L.C

سؤال ٩ اذا كان $\sqrt{\text{٠,٣٦}}$ س = ٠,٣٦ ، ما قيمة س

أ ٦ ب ٠,٠٣٦ ج ٠,٣٦ د ٠,٦

الإجابة الصحيحة: ج

٢٠٢٦ جميع المحتويات المنشورة محفوظة للمنصف.

جميع المحتويات المنشورة محفوظة لموقع elmonsf.com ©2023
ALMONSEF EDUCATIONAL TECHNOLOGIES RESEARCH & DEVELOPMENT L.L.C

202 سؤال ١٠ أوجد العام الذى أقل من ١٤٣٠ بـ ٩ ملايين ؟

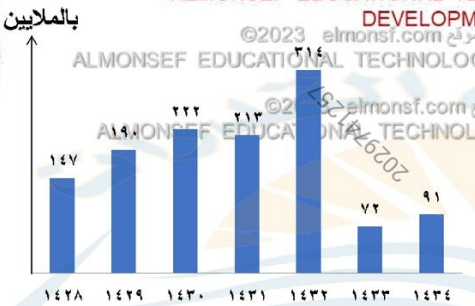

أ ١٤٢٨ ب ١٤٢٩ ج ١٤٣١ د ١٤٣٢

الإجابة الصحيحة: ج

٢٠٢٦ جميع المحتويات المنشورة محفوظة للمنصف.

جميع المحتويات المنشورة محفوظة لموقع elmonsf.com ©2023
ALMONSEF EDUCATIONAL TECHNOLOGIES RESEARCH & DEVELOPMENT L.L.C
2029741257

سؤال ١١

ما النوع الذي له نفس كمية البروتين في اللحم المفروم؟

	سكر	دهون	بروتين	قيمة غذائية
سمك			١٢	٤٠٠
لحم مفروم			١٦	٥٠٠
لانشون دجاج			١٤	٢٠٠
مارتديلا لحم			١٦	٣٠٠

أ) سمك

ب) لحم

ج) لانشون دجاج

د) مارتديلا لحم

الإجابة الصحيحة: د

٢٠٢٦ جميع المحتويات المنشورة محفوظة للمنصف.

جميع المحتويات المنشورة محفوظة لموقع elmonsf.com ©2023
ALMONSEF EDUCATIONAL TECHNOLOGIES RESEARCH & DEVELOPMENT L.L.C

سؤال ١٢ شاشة طول قطرها ٥٠ بوصة وعرضها ٣٠ بوصة ، أوجد طول الشاشة

أ ٣٠ ب ٣٥ ج ٤٠ د ٤٥

الإجابة الصحيحة: ج

سؤال ١٣

مربع طول قطره $٢\sqrt{٢}$ ، رسم بداخله دائرة تمس أضلاع المربع، ما مساحة الدائرة؟

2029741257

أ ط

ب ٢ط

ج ٤ط

د ٩ط

الإجابة الصحيحة: أ

٢٠٢٦ جميع المحتويات المنشورة محفوظة للمنصف.

جميع المحتويات المنشورة محفوظة لموقع elmonsf.com ©2023
ALMONSEF EDUCATIONAL TECHNOLOGIES RESEARCH & DEVELOPMENT L.L.C

سؤال ١٤ ٤ مولدات تعمل بكفاءة متساوية تنتج ٥٠٠٠ واط، إذا تعطل أحد المولدات فكم يكون الإنتاج ؟

أ ٣٥٠٠ واط
ب ٣٧٥٠ واط
ج ٤٠٠٠ واط
د ٤٢٥٠ واط

الإجابة الصحيحة: ب

٢٠٢٦ جميع المحتويات المنشورة محفوظة للمنصف.

جميع المحتويات المنشورة محفوظة لموقع elmonsf.com ©2023
ALMONSEF EDUCATIONAL TECHNOLOGIES RESEARCH & DEVELOPMENT L.L.C

سؤال ١٥

$\frac{١}{٨}$ عدد صحيح = $\frac{١}{٦}$ عدد صحيح آخر،

فإن أحدهما يمكن أن يكون .....

أ ٩١ ب ٦٢ ج ٥٤ د ٥٠

الإجابة الصحيحة: ج

٢٠٢٦ جميع المحتويات المنشورة محفوظة للمنصف.

جميع المحتويات المنشورة محفوظة لموقع elmonsf.com ©2023
ALMONSEF EDUCATIONAL TECHNOLOGIES RESEARCH & DEVELOPMENT L.L.C

سؤال ١٦ أقرب قيمة للمقدار $\frac{٩,٩٨ \times ١٠٩,٨٢}{٤,٠٩٢}$ هي .....؟

أ ٢٦٦ ب ٢٠٠ ج ٣٠٠ د ٣٧٥

الإجابة الصحيحة: أ

٢٠٢٦ جميع المحتويات المنشورة محفوظة للمنصف.

جميع المحتويات المنشورة محفوظة لموقع elmonsf.com ©2023
ALMONSEF EDUCATIONAL TECHNOLOGIES RESEARCH & DEVELOPMENT L.L.C

سؤال ١٧ قارن بين :

- القيمة الأولى: س
- القيمة الثانية: ص

أ القيمة الأولى أكبر
ب القيمة الثانية أكبر
ج القيمتان متساويتان
د المعطيات غير كافية

الإجابة الصحيحة: د

٢٠٢٦ جميع المحتويات المنشورة محفوظة للمنصف.

الارقام مشابهة

سؤال ١٨ أوجد كثافة اليمن

الدولة	المساحة	عدد السكان	الكثافة
اليمن	٥٥٠٠٠٠	٢٢٠٠٠٠٠٠٠	؟

أ ٤ ب ٢٤ ج ٣٦ د ٤٠

2029741257

الإجابة الصحيحة: د

٢٠٢٦ جميع المحتويات المنشورة محفوظة للمنصف.

جميع المحتويات المنشورة محفوظة لموقع elmonsf.com ©2023
ALMONSEF EDUCATIONAL TECHNOLOGIES RESEARCH & DEVELOPMENT L.L.C

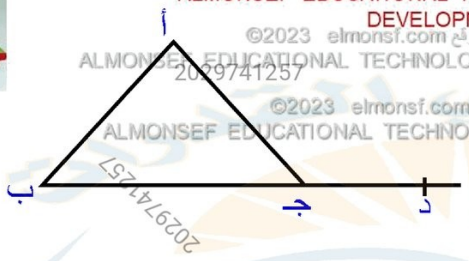

سؤال ١٩ **قارن بين :**

- القيمة الأولى: ق (أ جـ د)
- القيمة الثانية: ق (أ) + ق (ب)

أ القيمة الأولى أكبر
ب القيمة الثانية أكبر
ج القيمتان متساويتان
د المعطيات غير كافية

الإجابة الصحيحة: ج

٢٠٢٦ جميع المحتويات المنشورة محفوظة للمنصف.

جميع المحتويات المنشورة محفوظة لموقع elmonsf.com ©2023
ALMONSEF EDUCATIONAL TECHNOLOGIES RESEARCH & DEVELOPMENT L.L.C

سؤال ٢٠ انخفض الدخل الأسبوعي لأحد المحلات التجارية من ٣٨٠٠ ريال إلى ٢٨٥٠ ريال ، فما النسبة المئوية لنقص الدخل؟

أ ٢٥٪ ب ١٥٪ ج ١٠٪ د ٥٪

الإجابة الصحيحة: أ

٢٠٢٦ جميع المحتويات المنشورة محفوظة للمنصف.

جميع المحتويات المنشورة محفوظة لموقع elmonsf.com ©2023
ALMONSEF EDUCATIONAL TECHNOLOGIES RESEARCH & DEVELOPMENT L.L.C

سؤال ٢١ حصل أحمد على ١٨٠٠ من المجموع الكلي للدرجات، إذا كان المجموع الكلي للدرجات ٢٤٠٠ ، فما النسبة المئوية لدرجات أحمد؟

أ ٨٠٪ ب ٧٥٪ ج ٧٠٪ د ٦٥٪

الإجابة الصحيحة: ب

جميع المحتويات المنشورة محفوظة لموقع elmonsf.com ©2023
ALMONSEF EDUCATIONAL TECHNOLOGIES RESEARCH & DEVELOPMENT L.L.C

سؤال ٢٢ في الشكل التالي

المطلوب هو المقارنة بين

- القيمة الأولى: ٧ س-٣
- القيمة الثانية: ٥س + ١٧

أ القيمة الأولى أكبر
ب القيمة الثانية أكبر
ج القيمتان متساويتان
د المعطيات غير كافية

الإجابة الصحيحة: ج

٢٠٢٦ جميع المحتويات المنشورة محفوظة للمنصف.

سؤال ٢٣ قرأ خالد يوم الاثنين ١٥صفحة من كتاب عدد صفحاته ١٠٥وكل يوم يضاعف عدد الصفحات التي يقرأها ففي أي يوم ينتهي خالد من قراءة الكتاب ؟

أ الاربعاء
ب الخميس
ج السبت
د الجمعة

الإجابة الصحيحة: أ

٢٠٢٦ جميع المحتويات المنشورة محفوظة للمنصف.

جميع المحتويات المنشورة محفوظة لموقع elmonsf.com ©2023
ALMONSEF EDUCATIONAL TECHNOLOGIES RESEARCH & DEVELOPMENT L.L.C

سؤال ٢٤ إذا كانت ٣ س = $\sqrt{\frac{١}{٣ س}}$ ، حيث س عدد موجب، فما قيمة س؟

أ $\frac{١}{٩}$ ب $\frac{١}{٣}$ ج ٣ د ٩

الإجابة الصحيحة: ب

٢٠٢٦ جميع المحتويات المنشورة محفوظة للمنصف.

جميع المحتويات المنشورة محفوظة لموقع elmonsf.com ©2023
ALMONSEF EDUCATIONAL TECHNOLOGIES RESEARCH & DEVELOPMENT L.L.C

سؤال ٢٥

السؤال الآتي يتعلق بالشكل البياني التالي:

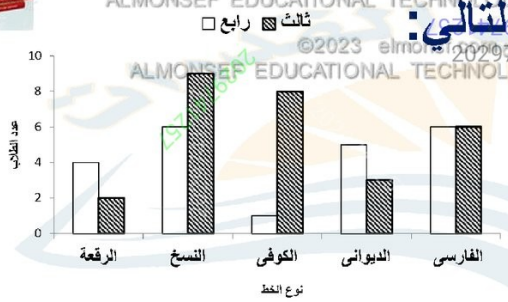

عدد الطلاب المسجلين في دورة الخط العربي للصفين الثالث والرابع ما متوسط عدد الطلاب من الصفين الثالث والرابع الذين تدربوا على خط الرقعة؟

أ ٢ ب ٣ ج ٤ د ٦

الإجابة الصحيحة: ب

٢٠٢٦ جميع المحتويات المنشورة محفوظة للمنصف.

جميع المحتويات المنشورة محفوظة لموقع elmonsf.com ©2023
ALMONSEF EDUCATIONAL TECHNOLOGIES RESEARCH & DEVELOPMENT L.L.C

سؤال ٢٦ ما الحد السادس في النمط ١، ٢، ٤، ٧، ١١، .....؟ 20297

أ ١٦ ب ١٥ ج ١٤ د ١٣

2029741257

الإجابة الصحيحة: أ

جميع المحتويات المنشورة محفوظة لموقع elmonsf.com ©2023
ALMONSEF EDUCATIONAL TECHNOLOGIES RESEARCH & DEVELOPMENT L.L.C

سؤال ٢٧ أرض زراعية تعطي محصولاً سنويًا من القمح، فإذا كان ناتج الأرض هذا العام $\frac{٥}{٨}$ المحصول، فما النسبة المئوية لخسارة المزارع؟

أ ٣٠٪ ب ٣٧,٥٪ ج ٦٢,٥٪ د ٦٦٪

الإجابة الصحيحة: ب

جميع المحتويات المنشورة محفوظة لموقع elmonsf.com ©2023
ALMONSEF EDUCATIONAL TECHNOLOGIES RESEARCH & DEVELOPMENT L.L.C

سؤال ٢٨ إذا كان مصنع أجبان يستخرج ٢ كيلوجرام جبناً من كل ١٥ لتر حليب، فكم لتراً يحتاج إذا أراد أن يستخرج ١٢ كيلوجرام من الجبن؟

أ ٩٠ ب ٦٠ ج ٣٦ د ٢٤

الإجابة الصحيحة: أ

٢٠٢٦ جميع المحتويات المنشورة محفوظة للمنصف.

جميع المحتويات المنشورة محفوظة لموقع elmonsf.com ©2023
ALMONSEF EDUCATIONAL TECHNOLOGIES RESEARCH & DEVELOPMENT L.L.C

سؤال ٢٩ احسب قيمة ١ + ٦ × (-٢)

2029741257

أ -١١ ب ١١ ج ١٣ د -١٣

الإجابة الصحيحة: أ

جميع المحتويات المنشورة محفوظة لموقع elmonsf.com ©2023
ALMONSEF EDUCATIONAL TECHNOLOGIES RESEARCH & DEVELOPMENT L.L.C

سؤال ٣٠ كم تصبح مساحة المربع بعد إزالة الجزء المظلل منه

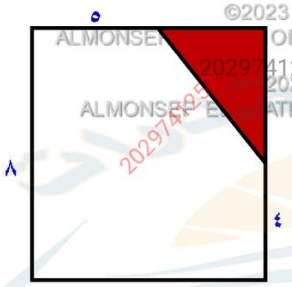

أ ٥٢ ب ٥٤ ج ٥٨ د ٦٠

الإجابة الصحيحة: ج

٢٠٢٦ جميع المحتويات المنشورة محفوظة للمنصف.

جميع المحتويات المنشورة محفوظة لموقع elmonsf.com ©2024
ALMONSEF EDUCATIONAL TECHNOLOGIES RESEARCH & DEVELOPMENT L.L.C

سؤال ٣١ تسير سيارة ٧٢كم في ٣٢ دقيقة، ما سرعة السيارة ؟

أ ٩٠ كم/س ب ١١٠ كم/س ج ١٢٠ كم/س د ١٣٥ كم/س

الإجابة الصحيحة: د

٢٠٢٦ جميع المحتويات المنشورة محفوظة للمنصف.

أرقام مشابهة

جميع المحتويات المنشورة محفوظة لموقع elmonsf.com ©2024
ALMONSEF EDUCATIONAL TECHNOLOGIES RESEARCH & DEVELOPMENT L.L.C

سؤال ٣٢ ما الحد التالي في المتتابعة الحسابية:

٨ ، ص-٣ ، ص+٤ ، .....

أ ٢٧ ب ٢٨ ج ٢٩ د ٣٠

الإجابة الصحيحة: ج

٢٠٢٦ جميع المحتويات المنشورة محفوظة للمنصف.

جميع المحتويات المنشورة محفوظة لموقع elmonsf.com ©2024
ALMONSEF EDUCATIONAL TECHNOLOGIES RESEARCH & DEVELOPMENT L.L.C

سؤال ٣٣ إذا كان $\frac{٥^{٢}}{س^{٢}} = \frac{٢^{س+١}}{١٦}$ ، أوجد قيمة س؟

أ ٤ ب ٥ ج ٦ د ٧

الإجابة الصحيحة: أ

٢٠٢٦ جميع المحتويات المنشورة محفوظة للمنصف.

2029741257

سؤال ٣٤ إذا كان س ، ص، ع اعداد نسبية
أي الآتي خاطئ؟

أ (ص + ع) س= (ص + ع) + س

ب (ص + ع) + س= ص + (ع + س)

ج ص(س × ع) = (ص × س) × ع

د (ص + ع) س = ص س + ع س

2029741257

الإجابة الصحيحة: أ

٢٠٢٦ جميع المحتويات المنشورة محفوظة للمنصف.

جميع المحتويات المنشورة محفوظة لموقع elmonsf.com ©2024
ALMONSEF EDUCATIONAL TECHNOLOGIES RESEARCH & DEVELOPMENT L.L.C

سؤال ٣٥ ما زيادة ٥٠٪ من ٣٠ عن $\frac{٣}{٥}$ من ٢٠؟

أ ٢
ب ٣
ج ٤
د ٥

الإجابة الصحيحة: ب

٢٠٢٦ جميع المحتويات المنشورة محفوظة للمنصف.

جميع المحتويات المنشورة محفوظة لموقع elmonsf.com ©2024
ALMONSEF EDUCATIONAL TECHNOLOGIES RESEARCH & DEVELOPMENT L.L.C

سؤال ٣٦ انطلقت سيارة الساعة ١ مساءا بسرعة ٤٠ كم/س وانطلقت سيارة أخرى الساعة ١:٣٠ بسرعة ٥٠ كم /س في نفس الاتجاه ، كم تكون الساعة عندما تتقابل السيارتان؟

أ ٢:٣٠ ب ٣:٣٠ ج ٤:٣٠ د ٥:٠٠

الإجابة الصحيحة: ب

جميع المحتويات المنشورة محفوظة لموقع elmonsf.com ©2024
ALMONSEF EDUCATIONAL TECHNOLOGIES RESEARCH & DEVELOPMENT L.L.C

سؤال ٣٧ إذا كان الجوال بعد شحنه بالكامل يظل لمدة ٤٨ ساعة في وضع التشغيل بدون استخدام ، وإذا استخدم بشكل متواصل سيظل في وضع التشغيل لمدة ٤ ساعات ، إذا تم شحنه بالكامل واستخدامه لمدة ساعة ، كم ساعة سيظل في وضع التشغيل؟

أ ٦ ب ١٢ ج ٣٦ د ٧٨

الإجابة الصحيحة: ج

٢٠٢٦ جميع المحتويات المنشورة محفوظة للمنصف.

©2024 elmonsf.com جميع المحتويات المنشورة محفوظة لموقع
ALMONSEF EDUCATIONAL TECHNOLOGIES RESEARCH & DEVELOPMENT L.L.C

سؤال ٣٨ إذا كان أب = ٨سم
أوجد طول نصف قطر الدائرة

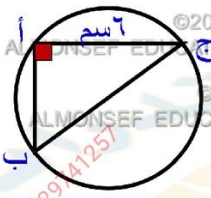

أ ٢,٥ ب ٥ ج ١٠ د ١٥

الإجابة الصحيحة: ب

٢٠٢٦ جميع المحتويات المنشورة محفوظة للمنصف.

أرقام مشابهة

جميع المحتويات المنشورة محفوظة لموقع elmonsf.com ©2024
ALMONSEF EDUCATIONAL TECHNOLOGIES RESEARCH & DEVELOPMENT L.L.C

سؤال ٣٩ ما العام الذي فيه عدد المقبولين أقل من ٣٪ من عدد المطبقين؟

		مطبق	مقبول
٢٠١٠			
٢٠١١			
٢٠١٢		٥٠٠٠	١٦٠
٢٠١٣		٨٥٠٠	١٧٠
٢٠١٤			

أ ٢٠١٠ ب ٢٠١١ ج ٢٠١٢ د ٢٠١٣

الإجابة الصحيحة: د

٢٠٢٦ جميع المحتويات المنشورة محفوظة للمنصف.

جميع المحتويات المنشورة محفوظة لموقع elmonsf.com ©2024
ALMONSEF EDUCATIONAL TECHNOLOGIES RESEARCH & DEVELOPMENT L.L.C

سؤال ٤٠ اختبر طالب وحصل على ٦٠ درجة ، ثم اختبر مرة أخرى وحصل على ٧٥ درجة ، كم النسبة المئوية لتحسن درجته ؟

أ ١٥ ٪ ب ٢٠ ٪ ج ٢٥ ٪ د ٣٠ ٪

الإجابة الصحيحة: ج

٢٠٢٦ جميع المحتويات المنشورة محفوظة للمنصف.

جميع المحتويات المنشورة محفوظة لموقع elmonsf.com ©2024
ALMONSEF EDUCATIONAL TECHNOLOGIES RESEARCH & DEVELOPMENT L.L.C

سؤال ٤١ إذا كان ٤ × س = ٢٤ ، ما قيمة س؟

أ ٥ ب ٦ ج ٧ د ٨

الإجابة الصحيحة: ب

٢٠٢٦ جميع المحتويات المنشورة محفوظة للمنصف.

جميع المحتويات المنشورة محفوظة لموقع elmonsf.com ©2024
ALMONSEF EDUCATIONAL TECHNOLOGIES RESEARCH & DEVELOPMENT L.L.C

سؤال ٤٢ **قارن بين :**

– القيمة الأولى: $\frac{١}{-١}$ – القيمة الثانية: $\frac{١}{٢}$

أ القيمة الأولى أكبر

ب القيمة الثانية أكبر

ج القيمتان متساويتان

د المعطيات غير كافية

الإجابة الصحيحة: ب

٢٠٢٦ جميع المحتويات المنشورة محفوظة للمنصف.

جميع المحتويات المنشورة محفوظة لموقع elmonsf.com ©2024
ALMONSEF EDUCATIONAL TECHNOLOGIES RESEARCH & DEVELOPMENT L.L.C

سؤال ٤٣ الشكل ادناه مستطيل ومربع ، ما مساحة المربع؟

أ ٣ ب ٦ ج ٩ د ١٢

الإجابة الصحيحة: ج

٢٠٢٦ جميع المحتويات المنشورة محفوظة للمنصف.

جميع المحتويات المنشورة محفوظة لموقع elmonsf.com ©2024
ALMONSEF EDUCATIONAL TECHNOLOGIES RESEARCH & DEVELOPMENT L.L.C

سؤال ٤٤ إذا كان عدد من الأطفال كل طفل يهدي الآخر هدية ، فإذا كان عدد الهدايا = ١٢ ، ما عدد الأطفال؟

أ ٣ ب ٤ ج ٥ د ٦

الإجابة الصحيحة: ب

٢٠٢٦ جميع المحتويات المنشورة محفوظة للمنصف.

سؤال ٤٥ أوجد قيمة س

2029741257

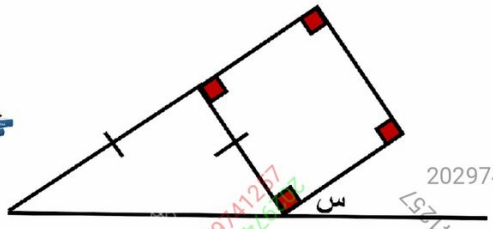

2029741257

أ ٩٠ ب ٤٥ ج ١٣٥ د ٦٠

الإجابة الصحيحة: ب

٢٠٢٦ جميع المحتويات المنشورة محفوظة للمنصف.

©2024 elmonsf.com جميع المحتويات المنشورة محفوظة لموقع
ALMONSEF EDUCATIONAL TECHNOLOGIES RESEARCH & DEVELOPMENT L.L.C

سؤال ٤٦ اشتري محمد ١٥ قلم وسعر القلم ٢ ريال ،اذا خُصم له ١٠ ٪ ، كم دفع بعد الخصم ؟

أ ٢٨ ب ٢٧ ج ٢٥ د ٢٤

الإجابة الصحيحة: ب

٢٠٢٦ جميع المحتويات المنشورة محفوظة للمنصف.

جميع المحتويات المنشورة محفوظة لموقع elmonsf.com ©2024
ALMONSEF EDUCATIONAL TECHNOLOGIES RESEARCH & DEVELOPMENT L.L.C

سؤال ٤٧ ما الحد النوني للمتتابعة:

-٣ ، ١ ، ٥ ، ٩ ، .....

أ ٤ن-٣ ب ن+٧ ج ٤ن-١٢ د ٤ن-٧

الإجابة الصحيحة: د

جميع المحتويات المنشورة محفوظة لموقع elmonsf.com ©2024
ALMONSEF EDUCATIONAL TECHNOLOGIES RESEARCH & DEVELOPMENT L.L.C

سؤال ٤٨ قارن بين:

- القيمة الأولى: $\frac{٣ \times ٧}{}$
- القيمة الثانية: $\frac{٢ \times ٧}{٢}$

أ القيمة الأولى أكبر
ب القيمة الثانية أكبر
ج القيمتان متساويتان
د المعطيات غير كافية

الإجابة الصحيحة: أ

٢٠٢٦ جميع المحتويات المنشورة محفوظة للمنصف.

جميع المحتويات المنشورة محفوظة لموقع elmonsf.com ©2024
ALMONSEF EDUCATIONAL TECHNOLOGIES RESEARCH & DEVELOPMENT L.L.C

سؤال ٤٩ عدد مكون من رقمين ، حاصل ضربهما = ٨
والفرق بين مربعيهما = ١٢ ، ما هذا العدد؟

أ ١٨ ب ٢٤ ج ٦٤ د ٨١

الإجابة الصحيحة: ب

©2024 elmonsf.com جميع المحتويات المنشورة محفوظة لموقع
ALMONSEF EDUCATIONAL TECHNOLOGIES RESEARCH & DEVELOPMENT L.L.C

سؤال ٥٠ ثلاث أشجار عند الزوايا $\hat{١}$ ، $\hat{٢}$ ، $\hat{٣}$

ما أكبر زاوية؟

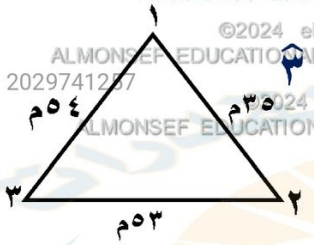

أ $\hat{١}$ ب $\hat{٢}$ ج $\hat{٣}$ د جميع الزوايا متطابقة

الإجابة الصحيحة: ب

٢٠٢٦ جميع المحتويات المنشورة محفوظة للمنصف.

جميع المحتويات المنشورة محفوظة لموقع elmonsf.com ©2024
ALMONSEF EDUCATIONAL TECHNOLOGIES RESEARCH & DEVELOPMENT L.L.C

سؤال ٥١ ما الفرق بين أيفون وبلاك بيري ؟

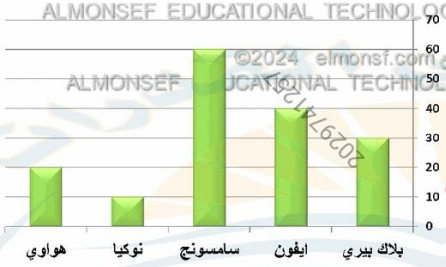

أ ٥
ب ١٠
ج ١٥
د ٢٠

الإجابة الصحيحة: ب

٢٠٢٦ جميع المحتويات المنشورة محفوظة للمنصف.

جميع المحتويات المنشورة محفوظة لموقع elmonsf.com ©2024
ALMONSEF EDUCATIONAL TECHNOLOGIES RESEARCH & DEVELOPMENT L.L.C

سؤال ٥٢ إذا كان متوسط الاعداد (١٢ ، ٢س ، ٣س) يساوي ٩ ، أوجد قيمة س

أ ٣ ب ٤ ج ٥ د ٦

الإجابة الصحيحة: أ

جميع المحتويات المنشورة محفوظة لموقع elmonsf.com ©2024
ALMONSEF EDUCATIONAL TECHNOLOGIES RESEARCH & DEVELOPMENT L.L.C

سؤال ٥٣ خزان مملوء الى $\frac{١}{٣}$ وإذا أضفنا له ١٠ لتر أصبح مملوء إلى النصف، كم سعة الخزان؟

2029741257

أ ٣٠ ب ٤٥ ج ٥٠ د ٦٠

الإجابة الصحيحة: د

٢٠٢٦ جميع المحتويات المنشورة محفوظة للمنصف.

©2024 elmonsf.com جميع المحتويات المنشورة محفوظة لموقع
ALMONSEF EDUCATIONAL TECHNOLOGIES RESEARCH & DEVELOPMENT L.L.C
2029741257

سؤال ٥٤ ما قيمة س؟

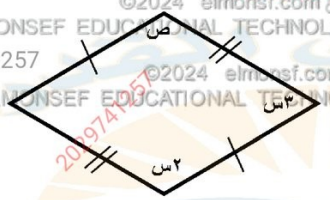

أ ٣٦ ب ٧٢ ج ١٠٨ د ١٢٠

الإجابة الصحيحة: أ

٢٠٢٦ جميع المحتويات المنشورة محفوظة للمنصف.

جميع المحتويات المنشورة محفوظة لموقع elmonsf.com ©2024
ALMONSEF EDUCATIONAL TECHNOLOGIES RESEARCH & DEVELOPMENT L.L.C

سؤال ٥٥ أي الآتي أكبر قيمة:

أ $\frac{٥١}{١٠٠}$ ب ٥,١ ٪ ج ٠,٥٪ د $\frac{١٠٥}{١٠٠٠}$

الإجابة الصحيحة: أ